IG-DI - June 3

Special class

Ishwargiri Swamy • June 3, 2024

Data Interpretation

1) పై గ్రాఫ్

2) బార్ గ్రాఫ్

3) లైన్ గ్రాఫ్

4) గ్రాఫ్ పేపర్

1) Percentage (శాతం)

2) Ratio (నిష్పత్తి)

3) Average (సగటు)

4) Comparison (పోలిక)

* స్కూల్

* A ಯನ್ನು B ಯ ಶೇಕಡಾ ಎಷ್ಟು?

$$\frac{A}{B} \times 100 = ?$$

* A ಯು B ಗಿಂತ ಶೇಕಡಾ ಎಷ್ಟು ಹೆಚ್ಚು?

$$\frac{A-B}{B} \times 100 = ?$$

* A ಯು B ಗಿಂತ ಶೇಕಡಾ ಎಷ್ಟು ಕಡಿಮೆ?

$$\frac{B-A}{B} \times 100 = ?$$

* ಪ್ರಾಸ

Total = 360°

Total = 100%

100% ——— 360°

Q. The given pie graph shows the total sales of various mobile companies for the year 2017. If the total sales in the year 2017 was 5000 crores then the sales in crore made by Vivo company was.

ನೀಡಿರುವ ಪೈ ಗ್ರಾಫ್ 2017 ರ ವಿವಿಧ ಮೊಬೈಲ್ ಕಂಪನಿಗಳ ಒಟ್ಟು ಮಾರಾಟವನ್ನು ತೋರಿಸುತ್ತದೆ. 2017 ರಲ್ಲಿ ಒಟ್ಟು ಮಾರಾಟವು 5000 ಕೋಟಿ ಆಗಿದ್ದರೆ Vivo ಕಂಪನಿಯು ಮಾಡಿದ ಮಾರಾಟ (ಕೋಟಿಗಳಲ್ಲಿ) ಎಷ್ಟು?

(a) 300 (b) 250

(c) 350 (d) 2000

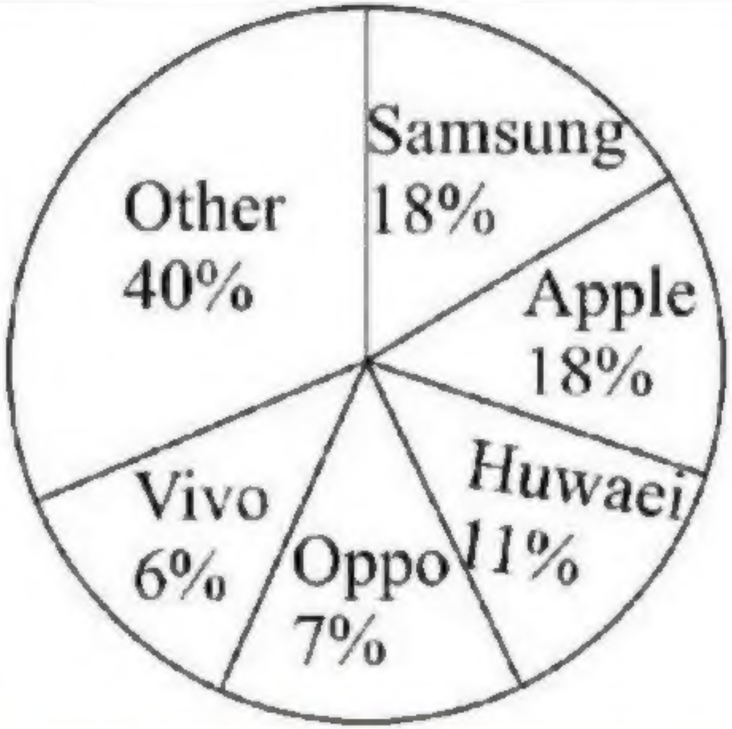

IGacademy Download App in PlayStore | SUBSCRIBE IshwarGiri ಪಾಠಶಾಲೆ | 8660070677

Q. ನೀಡಿರುವ ಪೈ ಗ್ರಾಫ್ 2017 ರ ವಿವಿಧ ಮೊಬೈಲ್ ಕಂಪನಿಗಳ ಒಟ್ಟು ಮಾರಾಟವನ್ನು ತೋರಿಸುತ್ತದೆ. 2017 ರಲ್ಲಿ ಒಟ್ಟು ಮಾರಾಟವು 5000 ಕೋಟಿ ಆಗಿದ್ದರೆ Vivo ಕಂಪನಿಯು ಮಾಡಿದ ಮಾರಾಟ (ಕೋಟಿಗಳಲ್ಲಿ) ಎಷ್ಟು?

(a) 300 (b) 250 (c) 350 (d) 2000

5000 → 6% → 300

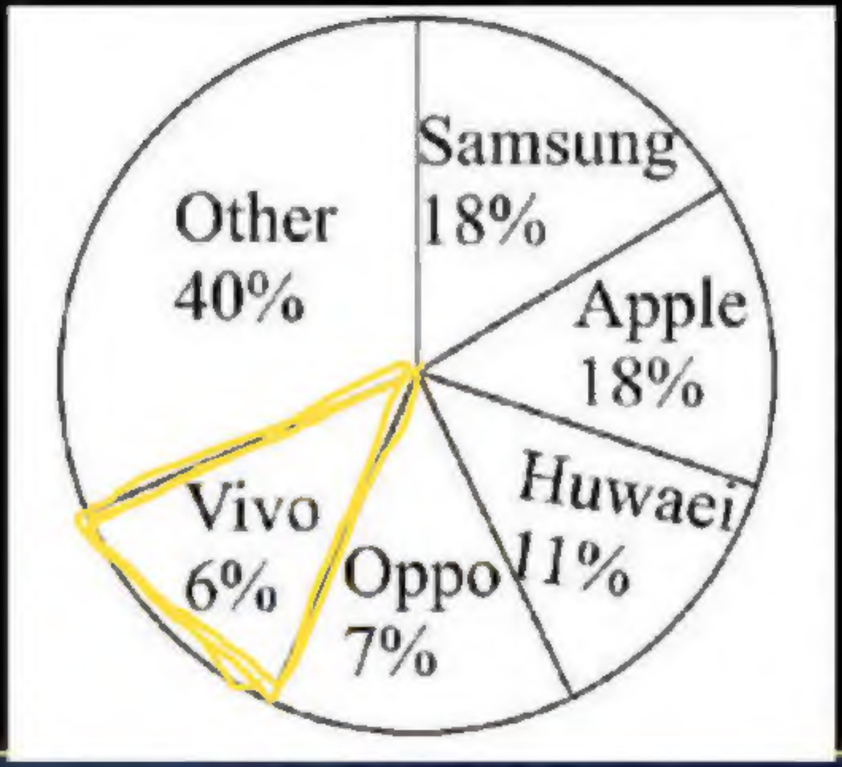

IGacademy
Download App in PlayStore
SUBSCRIBE
IshwarGiri ಪಾಠಶಾಲೆ
8660070677

Q. The percentage details of Ramu's monthly household expenses are as follows in four sections. If he earns Rs. 55000/month So, how much is the EMI he pays each month.

ರಾಮುವಿನ ಮಾಸಿಕ ಮನೆಯ ಖರ್ಚಿನ ಶೇಕಡಾವಾರು ವಿವರಗಳು ನಾಲ್ಕು ವಿಭಾಗಗಳಲ್ಲಿ ಈ ಕೆಳಗಿನಂತಿವೆ. ಆತ ರೂ. 55000/ತಿಂಗಳು ಗಳಿಸಿದರೆ , ಅವನು ಪ್ರತಿ ತಿಂಗಳು ಪಾವತಿಸುವ EMI ಎಷ್ಟು.

(a) Rs. 25300
(b) Rs. 24000
(c) Rs. 26300
(d) Rs. 25000



IGacademy Download App in PlayStore | SUBSCRIBE IshwarGiri ಪಾಠಶಾಲೆ | 8660070677

Q. ರಾಮುವಿನ ಮಾಸಿಕ ಮನೆಯ ಖರ್ಚಿನ ಶೇಕಡಾವಾರು ವಿವರಗಳು ನಾಲ್ಕು ವಿಭಾಗಗಳಲ್ಲಿ ಈ ಕೆಳಗಿನಂತಿವೆ. ಆತ ರೂ. 55000/ತಿಂಗಳು ಗಳಿಸಿದರೆ , ಅವನು ಪ್ರತಿ ತಿಂಗಳು ಪಾವತಿಸುವ EMI ಎಷ್ಟು.

(a) Rs. 25300
(b) Rs. 24000
(c) Rs. 26300
(d) Rs. 25000

55000 —46%→ 25300

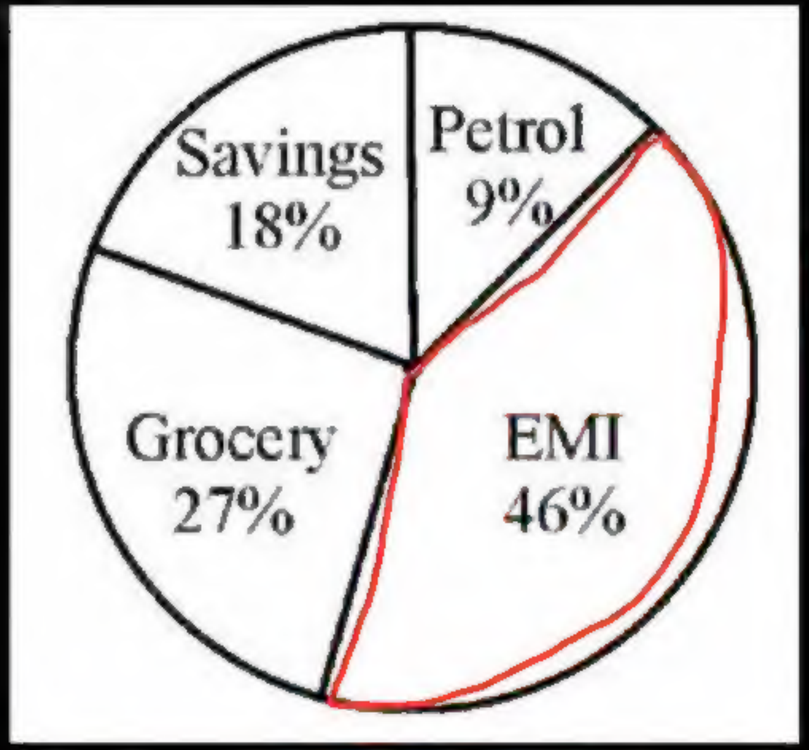

IGacademy
Download App in PlayStore
SUBSCRIBE
IshwarGiri ಪಾಠಶಾಲೆ
8660070677

Q. The pie chart below displays the instrument played by the student of a musical class. Read the following graph and answer the following questions.

ಕೆಳಗಿನ ಪೈ ಚಾರ್ಟ್ ಸಂಗೀತ ತರಗತಿಯ ವಿದ್ಯಾರ್ಥಿ ನುಡಿಸುವ ವಾದ್ಯವನ್ನು ಪ್ರದರ್ಶಿಸುತ್ತದೆ.
ಕೆಳಗಿನ ಗ್ರಾಫ್ ಅನ್ನು ಓದಿ ಮತ್ತು
ಕೆಳಗಿನ ಪ್ರಶ್ನೆಗಳಿಗೆ ಉತ್ತರಿಸಿ.

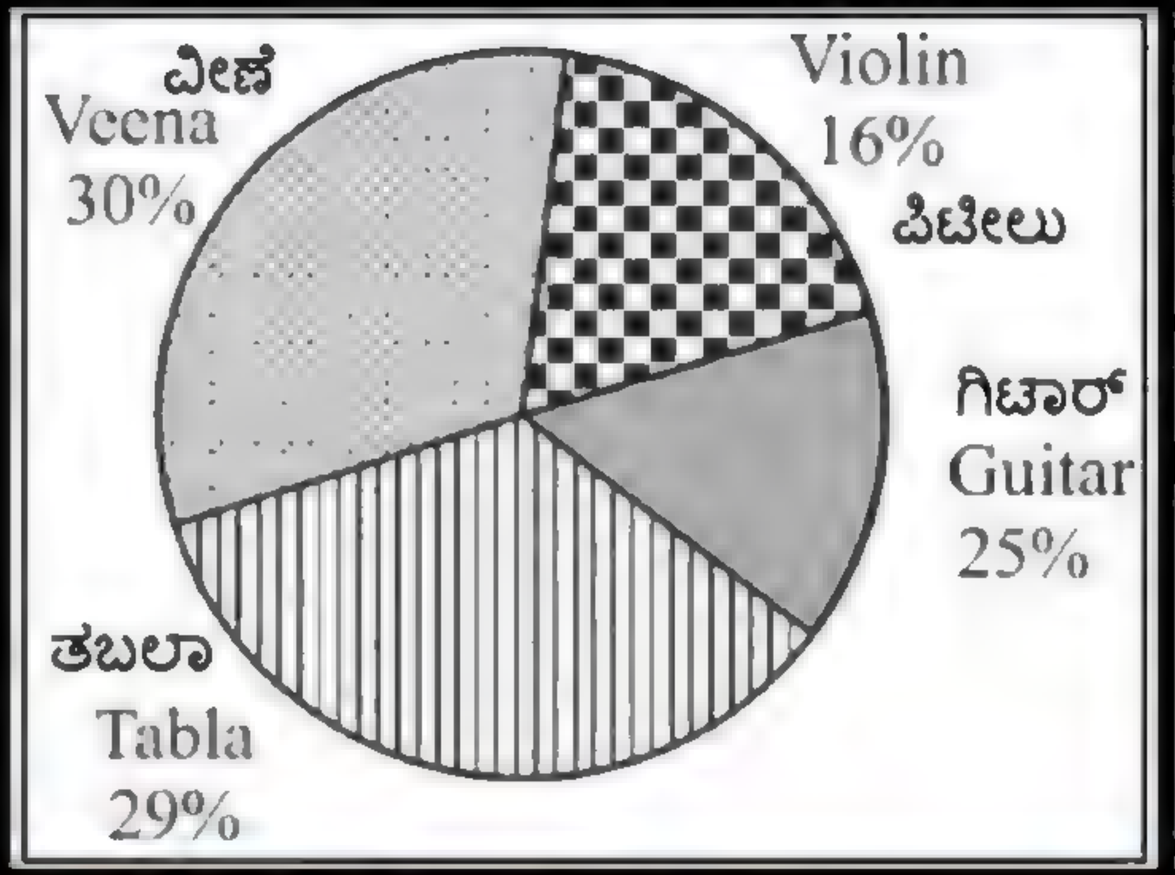

IGacademy Download App in PlayStore | SUBSCRIBE IshwarGiri ಪಾಠಶಾಲೆ | 8660070677

Q. The sector code related to violin is....

ಪಿಟೀಲಿಗೆ ಸಂಬಂಧಿಸಿದ ಸೆಕ್ಟರ್ ಕೋಡ್.....

(a) 16.8° **(b) 16°** **(c) 57.6°** **(d) 48°**

100 -/- $\xrightarrow{\times 3.6}$ 360°

16 -/- $\xrightarrow{\times 3.6}$ 57.6°

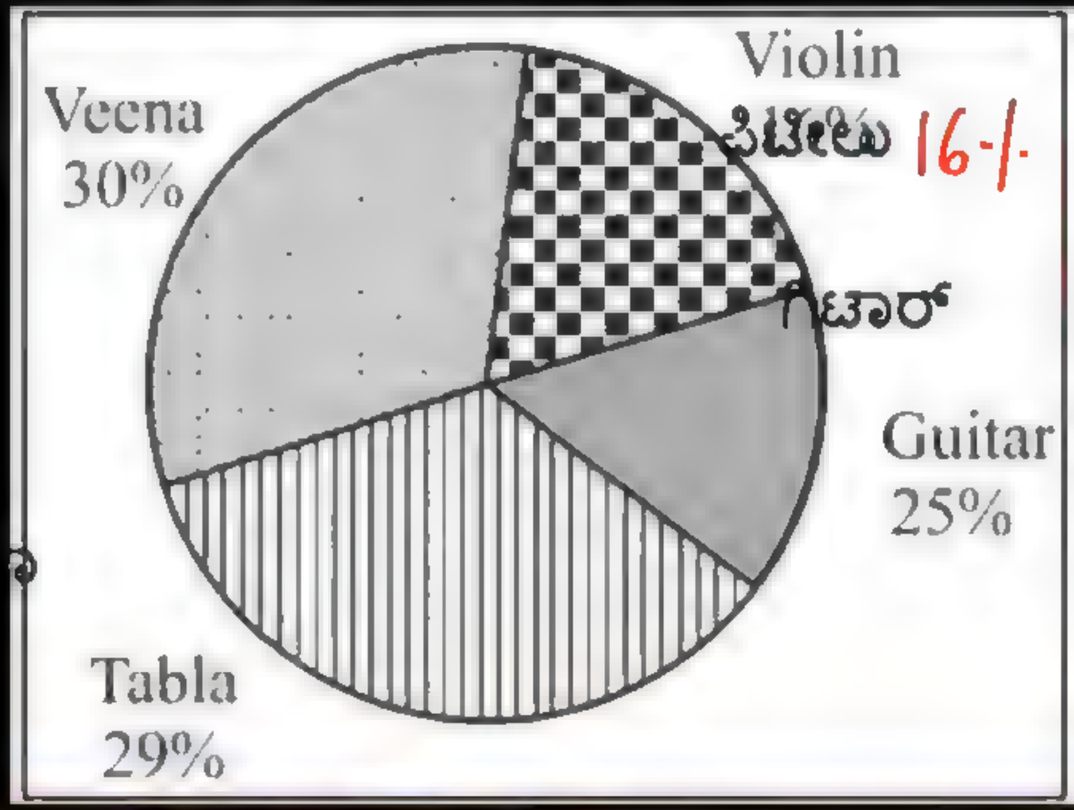

IGacademy Download App in PlayStore | SUBSCRIBE IshwarGiri ಪಾಠಶಾಲೆ | 8660070677

Q. pie chart shows favorite stars of a family people. (Bollywood stars SRK, SK, AK, HR and VD) . Study the pie chart carefully and answer the questions based on it.

ಪೈ ಚಾರ್ಟ್ ಕುಟುಂಬದ ಜನರ ನೆಚ್ಚಿನ ತಾರೆಯರನ್ನು ತೋರಿಸುತ್ತದೆ. (ಬಾಲಿವುಡ್ ತಾರೆಯರು SRK, SK, AK, HR
ಮತ್ತು VD) . ಪೈ ಚಾರ್ಟ್ ಅನ್ನು
ಎಚ್ಚರಿಕೆಯಿಂದ ಅಧ್ಯಯನ ಮಾಡಿ ಮತ್ತು
ಅದರ ಆಧಾರದ ಮೇಲೆ ಪ್ರಶ್ನೆಗಳಿಗೆ ಉತ್ತರಿಸಿ.

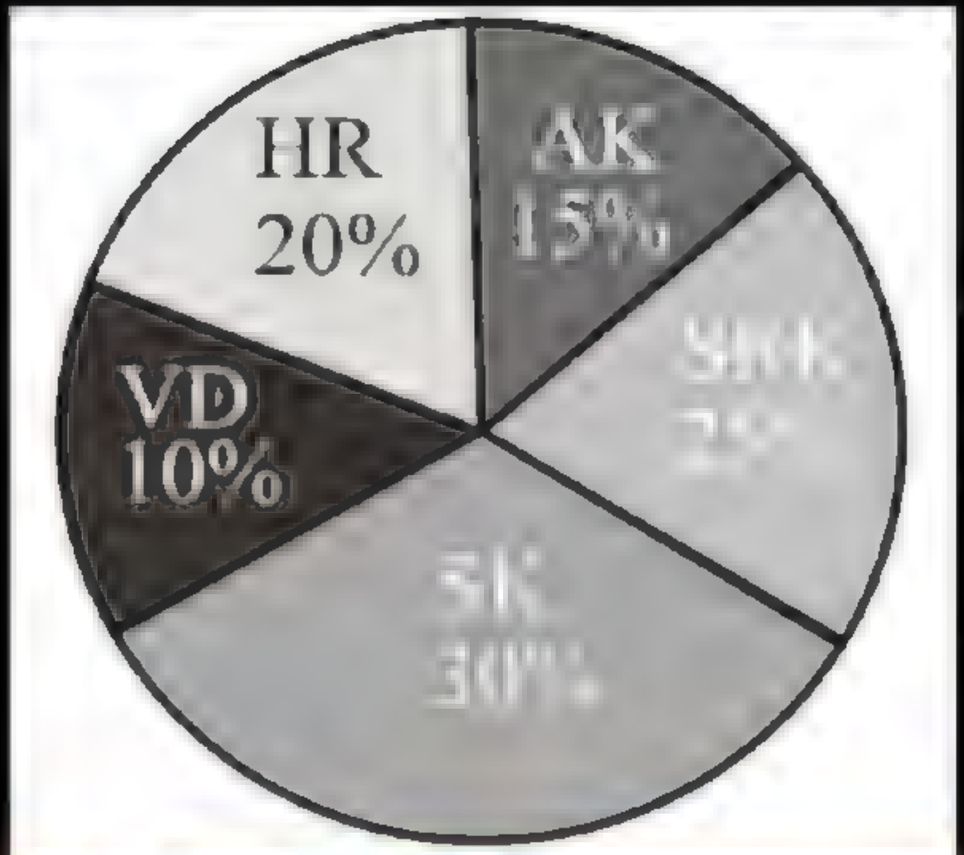

IGacademy Download App in PlayStore | SUBSCRIBE IshwarGiri ಪಾಠಶಾಲೆ | 8660070677

Q. The ratio between those who like SRK & who like SK is

SRK ಇಷ್ಟಪಡುವ ಮತ್ತು SK ಇಷ್ಟಪಡುವವರ ನಡುವಿನ ಅನುಪಾತ

(a) 6/5 (b) 5/6 (c) 1/2 (d) 2/1

$$\frac{SRK}{SK} = \frac{25}{30} = \frac{5}{6}$$

IGacademy Download App in PlayStore | SUBSCRIBE IshwarGiri ಪಾಠಶಾಲೆ | 8660070677

Q. Which is the sector angle of HR.
HR ನ ವಲಯ ಕೋನ ಯಾವುದು.

(a) 36 (b) 72 (c) 54 (d) 108

100% ——— 360°
×2 ×2
20% ——— 72°

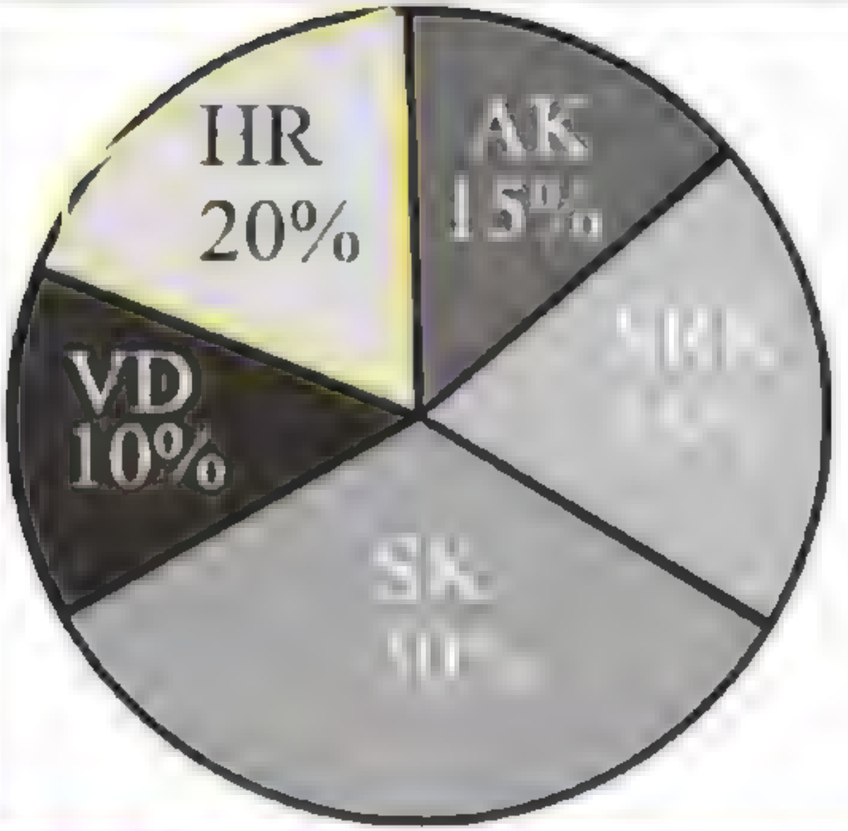

IGacademy Download App in PlayStore | SUBSCRIBE IshwarGiri ಪಾಠಶಾಲೆ | 8660070677

Q. If there are 40 people in the family, the difference between these who like AK and these who like VD

ಕುಟುಂಬದಲ್ಲಿ 40 ಜನರಿದ್ದರೆ, AK ರವರನ್ನು ಇಷ್ಟಪಡುವ ಮತ್ತು VD ರವರನ್ನು ಇಷ್ಟಪಡುವವರ ನಡುವಿನ ವ್ಯತ್ಯಾಸ

(a) 2 (b) 3
(c) 4 (d) 6

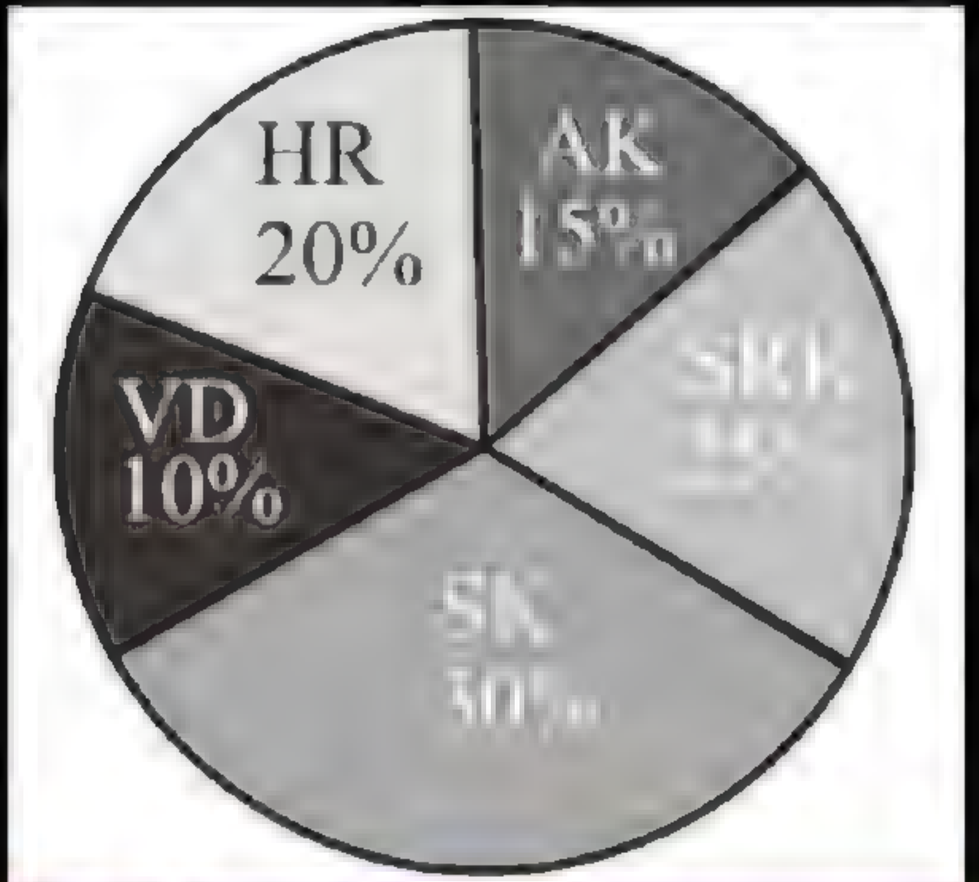

IGacademy Download App in PlayStore | SUBSCRIBE IshwarGiri ಪಾಠಶಾಲೆ | 8660070677

Q. ಕುಟುಂಬದಲ್ಲಿ 40 ಜನರಿದ್ದರೆ, AK ರವರನ್ನು ಇಷ್ಟಪಡುವ ಮತ್ತು VD ರವರನ್ನು ಇಷ್ಟಪಡುವವರ ನಡುವಿನ ವ್ಯತ್ಯಾಸ

(a) 2 (b) 3 (c) 4 (d) 6

AK VD

15% − 10% = 5%

40 → 5% → 2 ಜನ

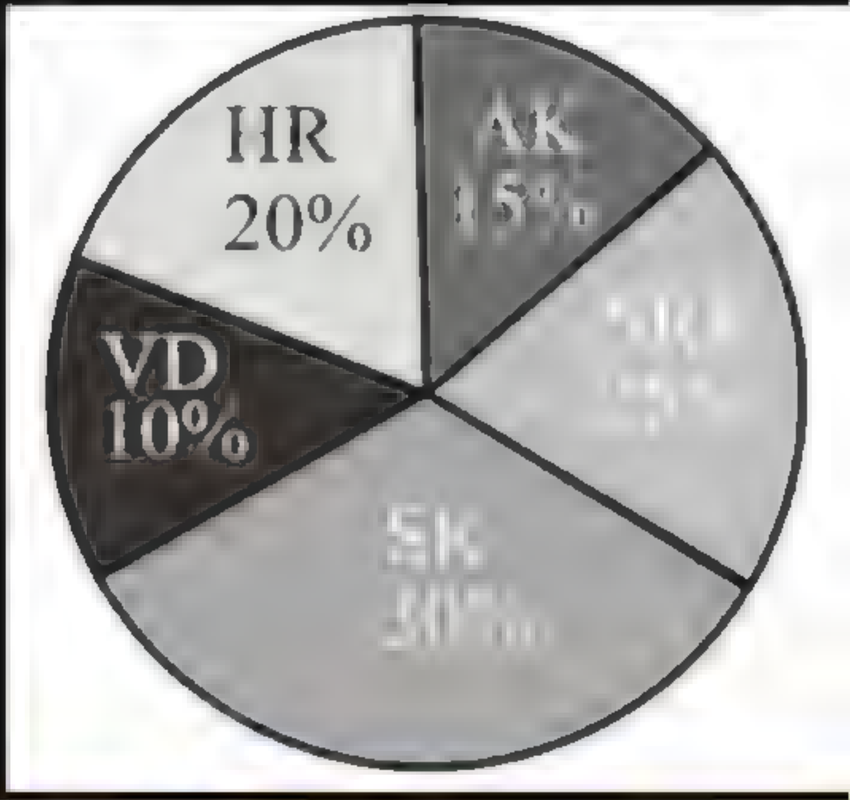

IGacademy Download App in PlayStore | SUBSCRIBE IshwarGiri ಪಾಠಶಾಲೆ | 8660070677

Q In a school, 1200 students were asked about their arrival vehicles and information received is indicated by the following pie chart, then based on the information given, find out how many students come to school by car.

ಒಂದು ಶಾಲೆಯಲ್ಲಿ, 1200 ವಿದ್ಯಾರ್ಥಿಗಳಿಗೆ ಅವರ ಆಗಮನದ ವಾಹನಗಳ ಬಗ್ಗೆ ಕೇಳಲಾಯಿತು ಮತ್ತು ಪಡೆದ ಮಾಹಿತಿಯನ್ನು ಈ ಕೆಳಗಿನ ಪೈ ಚಾರ್ಟ್‌ನಿಂದ ಸೂಚಿಸಲಾಗುತ್ತದೆ, ನೀಡಿದ ಮಾಹಿತಿಯ ಆಧಾರದ ಮೇಲೆ, ಎಷ್ಟು ವಿದ್ಯಾರ್ಥಿಗಳು ಕಾರಿನಲ್ಲಿ ಶಾಲೆಗೆ ಬರುತ್ತಾರೆ ಎಂಬುದನ್ನು ಕಂಡುಹಿಡಿಯಿರಿ.

(a) 1000 (b) 900

(c) 500 (d) 750

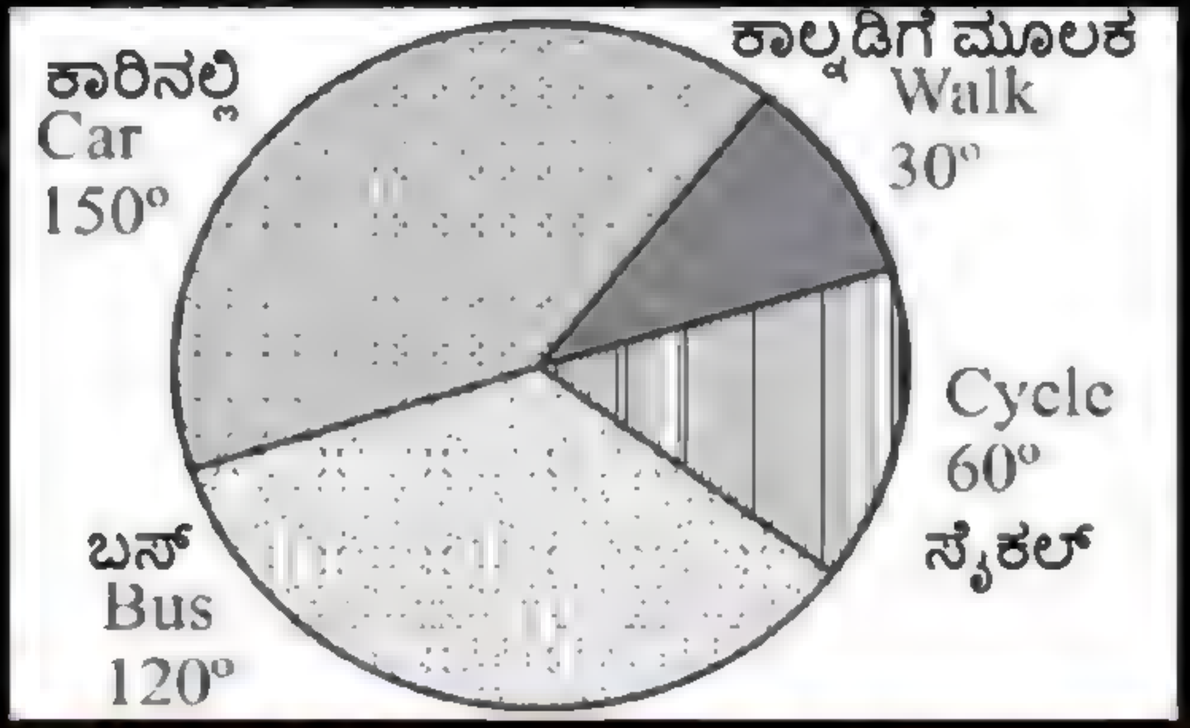

IGacademy Download App in PlayStore | SUBSCRIBE IshwarGiri ಪಾಠಶಾಲೆ | 8660070677

Q ಒಂದು ಶಾಲೆಯಲ್ಲಿ, 1200 ವಿದ್ಯಾರ್ಥಿಗಳಿಗೆ ಅವರ ಆಗಮನದ ವಾಹನಗಳ ಬಗ್ಗೆ ಕೇಳಲಾಯಿತು ಮತ್ತು ಪಡೆದ ಮಾಹಿತಿಯನ್ನು ಈ ಕೆಳಗಿನ ಪೈ ಚಾರ್ಟ್‌ನಿಂದ ಸೂಚಿಸಲಾಗುತ್ತದೆ, ನೀಡಿದ ಮಾಹಿತಿಯ ಆಧಾರದ ಮೇಲೆ, ಎಷ್ಟು ವಿದ್ಯಾರ್ಥಿಗಳು ಕಾರಿನಲ್ಲಿ ಶಾಲೆಗೆ ಬರುತ್ತಾರೆ ಎಂಬುದನ್ನು ಕಂಡುಹಿಡಿಯಿರಿ.

(a) 1000 (b) 900 (c) 500 (d) 750

12
360
5
150

×100 1200

×100 500

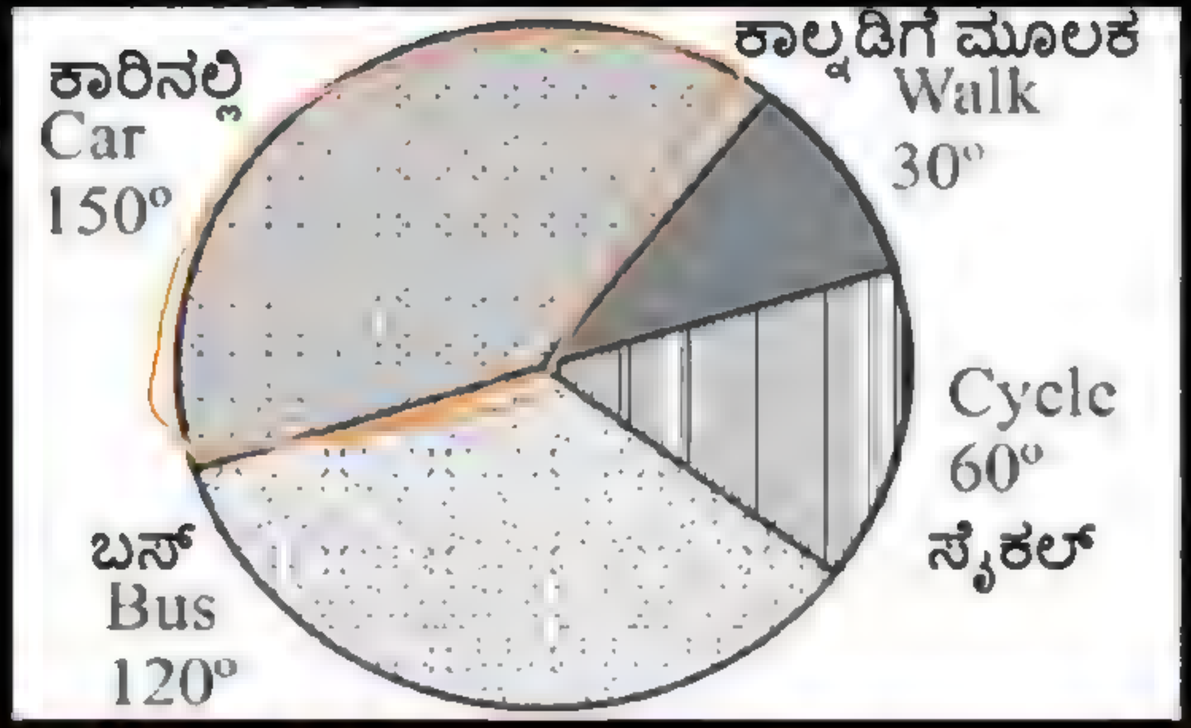

IGacademy Download App in PlayStore | SUBSCRIBE IshwarGiri ಪಾಠಶಾಲೆ | 8660070677

Q. In the following pie chart, annual production of some of the yield (in tonnes) is given. If the total production is 9000 tonnes, then the yield of rice is __ tonnes.

ಕೆಳಗಿನ ಪೈ ಚಾರ್ಟ್‌ನಲ್ಲಿ, ಕೆಲವು ಇಳುವರಿ (ಟನ್‌ಗಳಲ್ಲಿ) ವಾರ್ಷಿಕ ಉತ್ಪಾದನೆಯನ್ನು ನೀಡಲಾಗಿದೆ. ಒಟ್ಟು ಉತ್ಪಾದನೆಯು 9000 ಟನ್‌ಗಳಾಗಿದ್ದರೆ, ಅಕ್ಕಿಯ ಇಳುವರಿಯು __ ಟನ್‌ಗಳು.

(a) 3000 (b) 1000

(c) 2000 (d) 1500

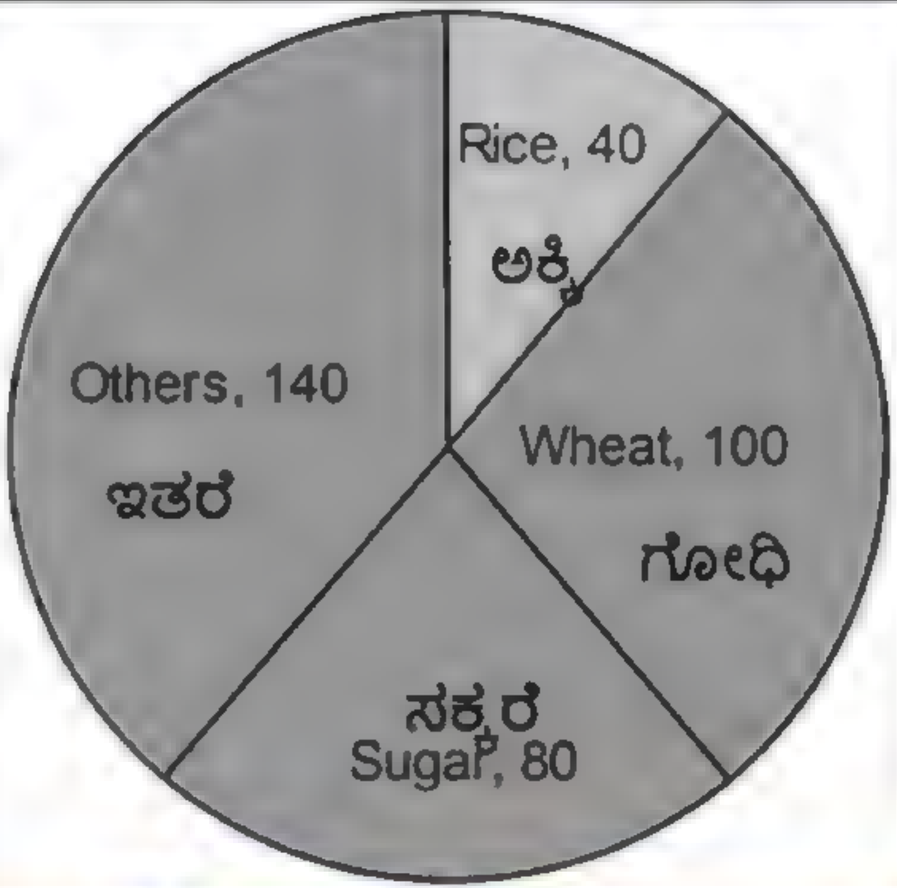

IGacademy Download App in PlayStore | SUBSCRIBE IshwarGiri ಪಾಠಶಾಲೆ | 8660070677

Q. ಕೆಳಗಿನ ಪೈ ಚಾರ್ಟ್‌ನಲ್ಲಿ, ಕೆಲವು ಇಳುವರಿ (ಟನ್‌ಗಳಲ್ಲಿ) ವಾರ್ಷಿಕ ಉತ್ಪಾದನೆಯನ್ನು ನೀಡಲಾಗಿದೆ. ಒಟ್ಟು ಉತ್ಪಾದನೆಯು 9000 ಟನ್‌ಗಳಾಗಿದ್ದರೆ, ಅಕ್ಕಿಯ ಇಳುವರಿಯು __ ಟನ್‌ಗಳು.

(a) 3000 (b) 1000 (c) 2000 (d) 1500

360° —— 9000

÷9 ÷9

40° —— 1000

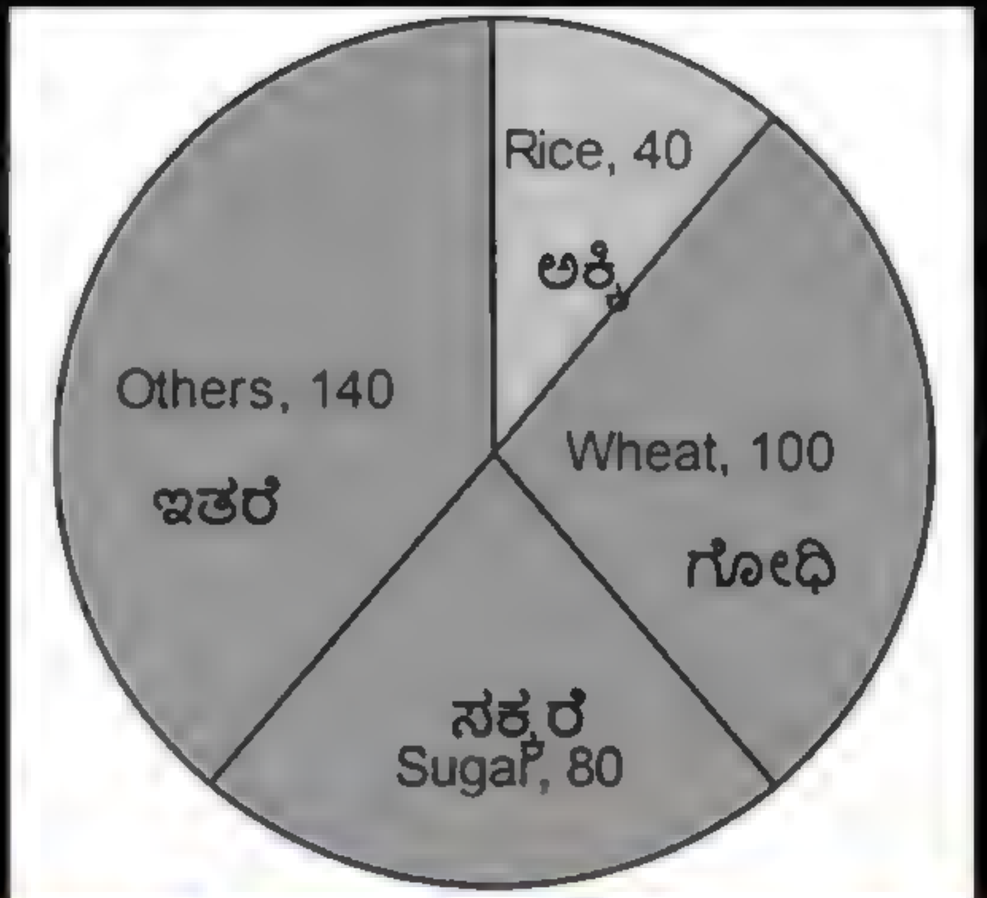

IGacademy Download App in PlayStore | SUBSCRIBE IshwarGiri ಪಾಠಶಾಲೆ | 8660070677

IGacademy
Download App in PlayStore
SUBSCRIBE
IshwarGiri ಪಾಠಶಾಲೆ
8660070677

Q. Expense on various items of a company are shown below (in lakhs). What is the percentage of the total expenditure of year 1 of the total expenditure of year 3.

ಕಂಪನಿಯ ವಿವಿಧ ವಸ್ತುಗಳ ಮೇಲಿನ ವೆಚ್ಚವನ್ನು ಕೆಳಗೆ ತೋರಿಸಲಾಗಿದೆ (ಲಕ್ಷಗಳಲ್ಲಿ). ವರ್ಷ 1 ರ ಒಟ್ಟು ವೆಚ್ಚ 3 ನೇ ವರ್ಷದ ಒಟ್ಟು ವೆಚ್ಚದ ಶೇಕಡಾವಾರು ಎಷ್ಟು.

(a) 100% (b) 5% (c) 0.5% (d) 50%

Year ವರ್ಷ	Salary ಸಂಬಳ	Bonus ಬೋನಸ್	Tax ತೆರಿಗೆ	Interest on debt ಸಾಲದ ಮೇಲಿನ ಬಡ್ಡಿ
year 1	200	10	70	20
year 2	200	10	70	22
year 3	450	10	120	20

IGacademy Download App in PlayStore | SUBSCRIBE IshwarGiri ಪಾಠಶಾಲೆ | 8660070677

Q. ಕಂಪನಿಯ ವಿವಿಧ ವಸ್ತುಗಳ ಮೇಲಿನ ವೆಚ್ಚವನ್ನು ಕೆಳಗೆ ತೋರಿಸಲಾಗಿದೆ (ಲಕ್ಷಗಳಲ್ಲಿ). ವರ್ಷ 1 ರ ಒಟ್ಟು ವೆಚ್ಚ 3 ನೇ ವರ್ಷದ ಒಟ್ಟು ವೆಚ್ಚದ ಶೇಕಡಾವಾರು ಎಷ್ಟು.

(a) 100% (b) 5% (c) 0.5% (4) 50%

$\frac{300}{600} \times 100 = 50\%$

$\frac{600}{2}$

ಸಾಲದ ಮೇಲಿನ ಬಡ್ಡಿ

Year ವರ್ಷ	Salary ಸಂಬಳ	Bonus ಬೋನಸ್	Tax ತೆರಿಗೆ	Interest on debt
year 1	200 +	10 +	70 +	20 = 300
year 2	200	10	70	22
year 3	450 +	10 +	120 +	20 = 600

IGacademy Download App in PlayStore | SUBSCRIBE IshwarGiri ಪಾಠಶಾಲೆ | 8660070677

Q. CO2 emissions in 3 years in the following municipality has given.
ಕೆಳಗೆ ಪುರಸಭೆಯಲ್ಲಿ 3 ವರ್ಷಗಳಲ್ಲಿ CO2 ಹೊರಸೂಸುವಿಕೆಯನ್ನು ನೀಡಲಾಗಿದೆ.

Year ವರ್ಷ	CO_2 emission from house ಮನೆಯಿಂದ CO_2 ಹೊರಸೂಸುವಿಕೆ
2015	100
2016	110
2017	150

IGacademy Download App in PlayStore | SUBSCRIBE IshwarGiri ಪಾಠಶಾಲೆ | 8660070677

Q. What is the percentage increase in CO_2 emission between 2016 and 2017?
2016 ರಿಂದ 2017 ರ ನಡುವೆ CO_2 ಹೊರಸೂಸುವಿಕೆಯ ಶೇಕಡಾವಾರು ಹೆಚ್ಚಳ ಎಷ್ಟು?

(a) 63.63% (b) 36.36% (c) 36.45% (d) 26.36%

$$\frac{40}{110} \times 100 = \frac{400}{11} = 36.36$$

$\frac{1}{11} = 9.09$

$\frac{4}{11} = 36.36$

Year ವರ್ಷ	CO_2 emission from house ಮನೆಯಿಂದ CO_2 ಹೊರಸೂಸುವಿಕೆ
2015	100
2016	110
2017	150

40

IGacademy Download App in PlayStore | SUBSCRIBE IshwarGiri ಪಾಠಶಾಲೆ | 8660070677

$\frac{3}{11} = 9:1$

$\frac{7}{11} = 63:63:1$

$\frac{3}{8} = 37.5:1$

$\frac{1}{8} = 12.5:1$

$\frac{3}{7} = 14:28:1 \times 3$

$= 42\ 84:1$

19- Soustraction

$\frac{1}{3} = 33.33\%$

$\frac{2}{3} = 66.66\%$

$\frac{3}{3} = 100\%$

$\frac{4}{3} = 133.33\%$

$\frac{4}{3} = 33.33\% \times 4$

$= 133.33\%$

$\frac{4}{9} = 11.11\% \times 4$

44.44%

Q. The monthly fees charged by a sports complex for various disciplines are as follows:
ವಿವಿಧ ವಿಭಾಗಗಳಿಗೆ ಕ್ರೀಡಾ ಸಂಕೀರ್ಣವು ವಿಧಿಸುವ ಮಾಸಿಕ ಶುಲ್ಕಗಳು ಈ ಕೆಳಗಿನಂತಿವೆ:

Facilities	Number of consumers
Gym	300
Swimming pool	200
Tennis court	100

IGacademy Download App in PlayStore | SUBSCRIBE IshwarGiri ಪಾಠಶಾಲೆ | 8660070677

Q. Rs. 500 for gym, Rs. 1,500 for swimming pool and Rs. 2000 for tennis court. The list of consumers using these facilities is given below. How much does the gym earn from users who use it.

ಜಿಮ್‌ಗೆ 500 ರೂ. ಈಜುಕೊಳಕ್ಕೆ 1,500 ರೂ. ಟೆನಿಸ್ ಕೋರ್ಟ್‌ಗೆ 2000 ರೂ. ಈ ಸೌಲಭ್ಯಗಳನ್ನು ಬಳಸುವ ಗ್ರಾಹಕರ ಪಟ್ಟಿಯನ್ನು ಕೆಳಗೆ ನೀಡಲಾಗಿದೆ.
ಜಿಮ್ ಬಳಸುವ ಬಳಕೆದಾರರಿಂದ ಎಷ್ಟು ಗಳಿಸುತ್ತದೆ.

(a) Rs. 1,50,000
(b) Rs. 15,000
(c) Rs. 25,000
(d) Rs. 50,000

Facilities	Number of consumers
Gym	300
Swimming pool	200
Tennis court	100

IGacademy Download App in PlayStore | SUBSCRIBE IshwarGiri ಪಾಠಶಾಲೆ | 8660070677

Q. ಜಿಮ್‌ಗೆ 500 ರೂ. ಈಜುಕೊಳಕ್ಕೆ 1,500 ರೂ. ಟೆನಿಸ್ ಕೋರ್ಟ್‌ಗೆ 2000 ರೂ. ಈ ಸೌಲಭ್ಯಗಳನ್ನು ಬಳಸುವ ಗ್ರಾಹಕರ ಪಟ್ಟಿಯನ್ನು ಕೆಳಗೆ ನೀಡಲಾಗಿದೆ. ಜಿಮ್ ಬಳಸುವ ಬಳಕೆದಾರರಿಂದ ಎಷ್ಟು ಗಳಿಸುತ್ತದೆ.

(a) Rs. 1,50,000 (b) Rs. 15,000 (c) Rs. 25,000 (d) Rs. 50,000

500 X 300 = 150000

Facilities	Number of consumers
Gym	300
Swimming pool	200
Tennis court	100

IGacademy Download App in PlayStore | SUBSCRIBE IshwarGiri ಪಾಠಶಾಲೆ | 8660070677

Q. The following table shows the number of MSD, VK, RD and SR fans in different areas of the city. Consider the following information and answer the following question based on it.

ಕೆಳಗಿನ ಕೋಷ್ಟಕವು ನಗರದ ವಿವಿಧ ಪ್ರದೇಶಗಳಲ್ಲಿ MSD, VK, RD ಮತ್ತು SR ಅಭಿಮಾನಿಗಳ ಸಂಖ್ಯೆಯನ್ನು ತೋರಿಸುತ್ತದೆ. ಕೆಳಗಿನ ಮಾಹಿತಿಯನ್ನು ಪರಿಗಣಿಸಿ ಮತ್ತು ಅದರ ಆಧಾರದ ಮೇಲೆ ಈ ಕೆಳಗಿನ ಪ್ರಶ್ನೆಗೆ ಉತ್ತರಿಸಿ.

	Area 1	Area 2	Area 3	Area 4
VK	2500	1700	2300	5000
MSD	3000	3000	4000	3100
RD	1500	3500	4500	5200
SR	1500	4000	3500	2500

IGacademy Download App in PlayStore | SUBSCRIBE IshwarGiri ಪಾಠಶಾಲೆ | 8660070677

Q. What is the difference between total number of fans of SR and MSD?
SR ಮತ್ತು MSD ಅಭಿಮಾನಿಗಳ ಒಟ್ಟು ಸಂಖ್ಯೆಯ ನಡುವಿನ ವ್ಯತ್ಯಾಸವೇನು?

(a) 1500 **(b) 1600** **(c) 3000** **(d) 3200**

SR = 11500

MSD = 13100

1600

	Area 1	Area 2	Area 3	Area 4
VK	2500	1700	2300	5000
MSD	3000	3000	4000	3100
RD	1500	3500	4500	5200
SR	1500	4000	3500	2500

IGacademy Download App in PlayStore | SUBSCRIBE IshwarGiri ಪಾಠಶಾಲೆ | 8660070677

Q. Whose fans are largest?
ಯಾರ ಅಭಿಮಾನಿಗಳು ಹೆಚ್ಚಿದ್ದಾರೆ?

(a) VK (b) MSD (c) RD (d) SR

VK = 11500

MSD = 13100

RD = 14700

SR = 11500

	Area 1	Area 2	Area 3	Area 4
VK	2500	1700	2300	5000
MSD	3000	3000	4000	3100
RD	1500	3500	4500	5200
SR	1500	4000	3500	2500

IGacademy Download App in PlayStore | SUBSCRIBE IshwarGiri ಪಾಠಶಾಲೆ | 8660070677

IGacademy
Download App in PlayStore
SUBSCRIBE
IshwarGiri ಪಾಠಶಾಲೆ
8660070677

Q. In the following graph, income from the laundry and dry cleaner of four different shop is given, its values are given in the form of Rupees.

ಕೆಳಗಿನ ಗ್ರಾಫ್‌ನಲ್ಲಿ, ಅಂಗಡಿಯ ನಾಲ್ಕು ವಿಭಿನ್ನ ತಿಂಗಳುಗಳ ಲಾಂಡ್ರಿ ಮತ್ತು ಡ್ರೈ ಕ್ಲೀನರ್‌ನಿಂದ ಆದಾಯವನ್ನು
ನೀಡಲಾಗಿದೆ. ಅದರ
ಮೌಲ್ಯಗಳನ್ನು ರೂಪಾಯಿಗಳ
ರೂಪದಲ್ಲಿ ನೀಡಲಾಗಿದೆ.

IGacademy Download App in PlayStore | SUBSCRIBE IshwarGiri ಪಾಠಶಾಲೆ | 8660070677

Q. What is percentage difference between month 1 to month 4.
ತಿಂಗಳು 1 ರಿಂದ ತಿಂಗಳು 4 ರ ನಡುವಿನ ಶೇಕಡಾವಾರು ವ್ಯತ್ಯಾಸವೇನು.

(a) 20% (b) 25% (c) 50% (d) 15%

$$\frac{5000}{25000} \times 100 = 20\%$$



IGacademy Download App in PlayStore | SUBSCRIBE IshwarGiri ಪಾಠಶಾಲೆ | 8660070677

Q. This time, pay attention to charts and answer the following question.
following table shows the details of TV sets selling over the years.
ಈ ಸಮಯದಲ್ಲಿ, ಚಾರ್ಟ್‌ಗಳಿಗೆ ಗಮನ ಕೊಡಿ ಮತ್ತು ಕೆಳಗಿನ ಪ್ರಶ್ನೆಗೆ ಉತ್ತರಿಸಿ. ಕೆಳಗಿನ ಕೋಷ್ಟಕವು ವರ್ಷಗಳಲ್ಲಿ ಮಾರಾಟವಾದ ಟಿವಿ ಸೆಟ್‌ಗಳ ವಿವರಗಳನ್ನು ತೋರಿಸುತ್ತದೆ.

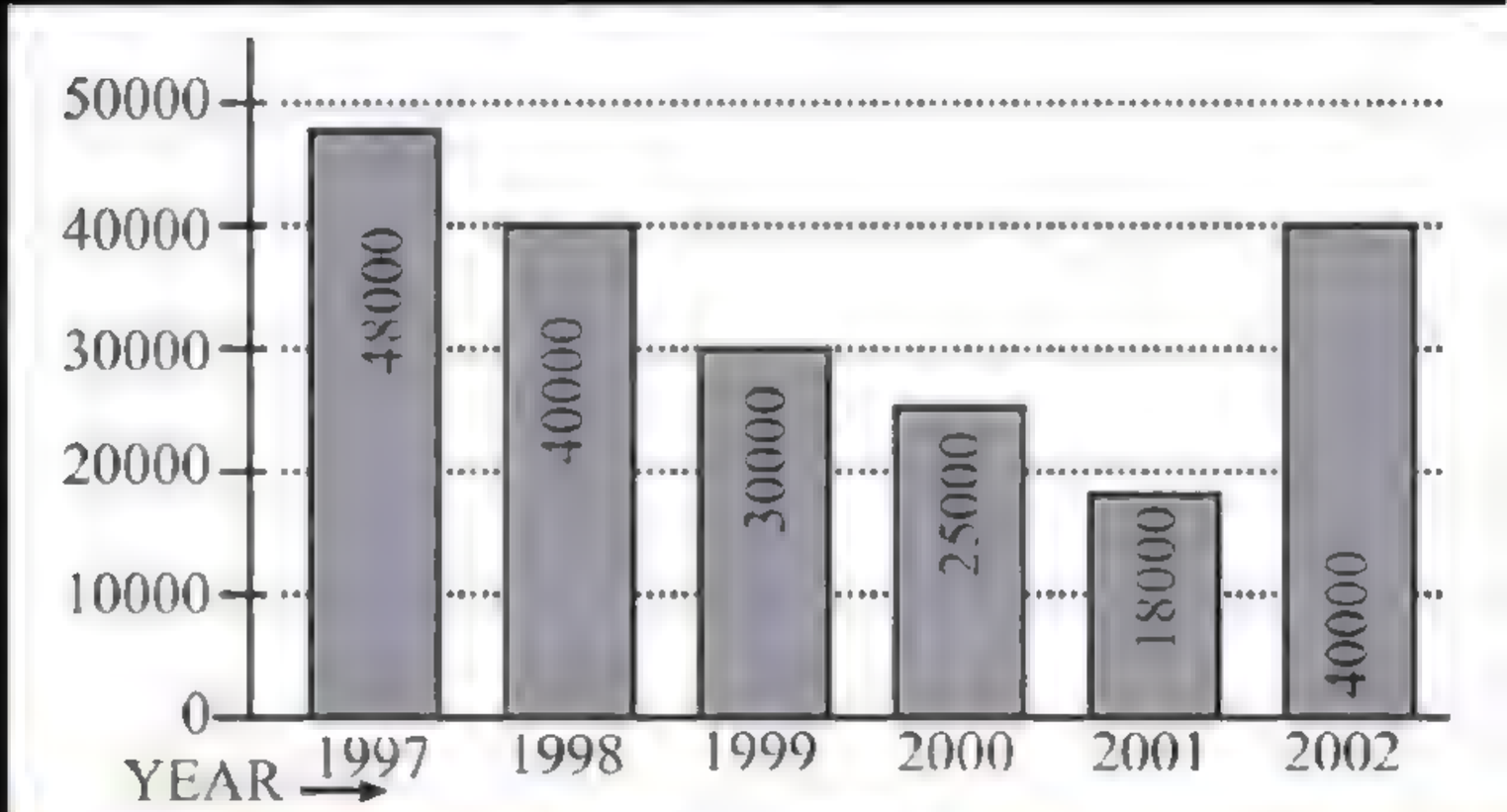

IGacademy Download App in PlayStore | SUBSCRIBE IshwarGiri ಮಾರ್ಗದರ್ಶಿ | 8660070677

Q. What is the percentage increment of TV sets selling in years 2001 to 2002?
2001 ರಿಂದ 2002 ವರ್ಷಗಳಲ್ಲಿ ಮಾರಾಟವಾದ ಟಿವಿ ಸೆಟ್‌ಗಳ ಶೇಕಡಾವಾರು ಹೆಚ್ಚಳ ಎಷ್ಟು?

(a) 115% (b) 128% (c) 122% (d) 118%

$\frac{2200}{1800} \times 100 = 122\%$

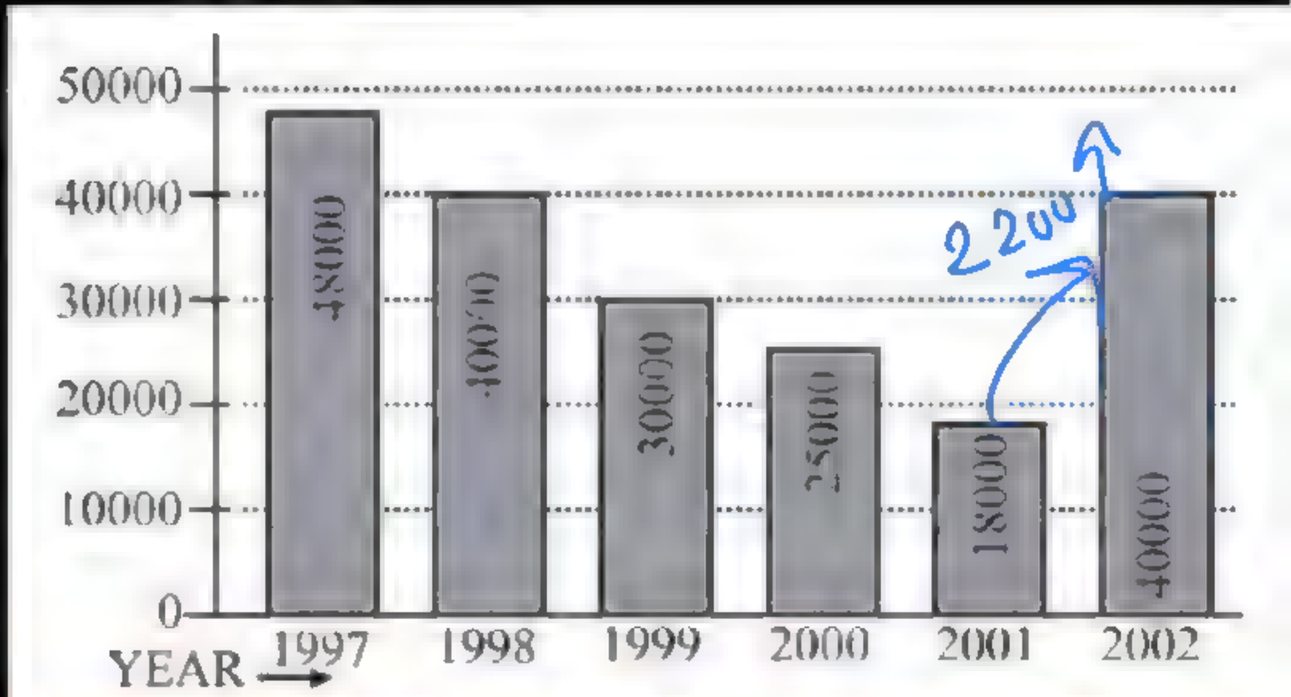

IGacademy Download App in PlayStore | SUBSCRIBE IshwarGiri ಪಾಠಶಾಲೆ | 8660070677

Q. The sum of sales of TV sets held in the year 1999 and year 2001 is equal to the sales of which year?

1999 ಮತ್ತು 2001 ರಲ್ಲಿ ನಡೆದ ಟಿವಿ ಸೆಟ್‌ಗಳ ಮಾರಾಟದ ಮೊತ್ತವು ಯಾವ ವರ್ಷದ ಮಾರಾಟಕ್ಕೆ ಸಮಾನವಾಗಿದೆ?

(a) 1997 (b) 1993
(c) 2000 (d) 2002

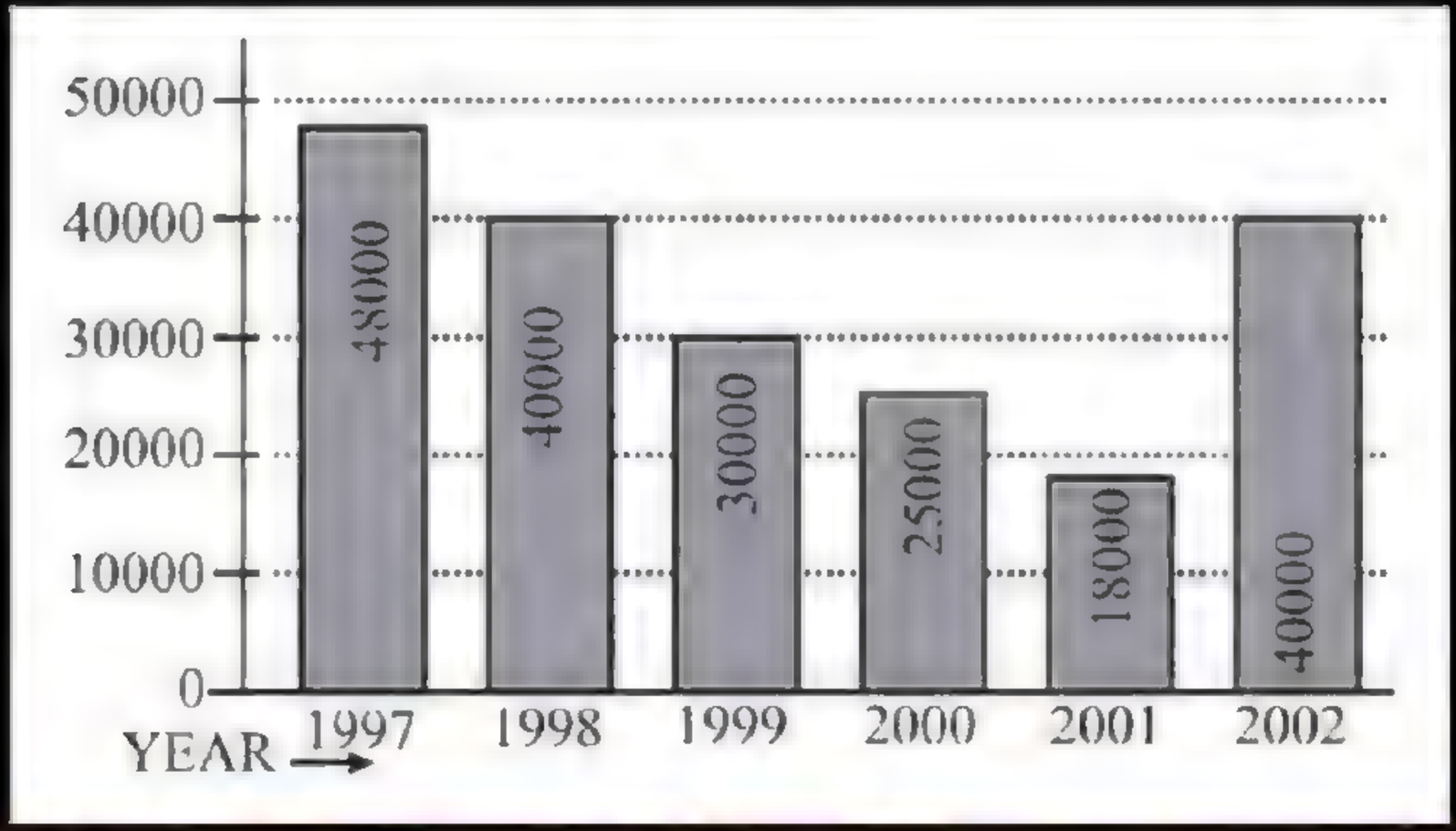

IGacademy Download App in PlayStore | SUBSCRIBE IshwarGiri ಪಾಠಶಾಲೆ | 8660070677

Q. 1999 ಮತ್ತು 2001 ರಲ್ಲಿ ನಡೆದ ಟಿವಿ ಸೆಟ್‌ಗಳ ಮಾರಾಟದ ಮೊತ್ತವು ಯಾವ ವರ್ಷದ ಮಾರಾಟಕ್ಕೆ ಸಮಾನವಾಗಿದೆ?

(a) 1997 (b) 1993 (c) 2000 (d) 2002

30000+18000 ಸಮ (1997)

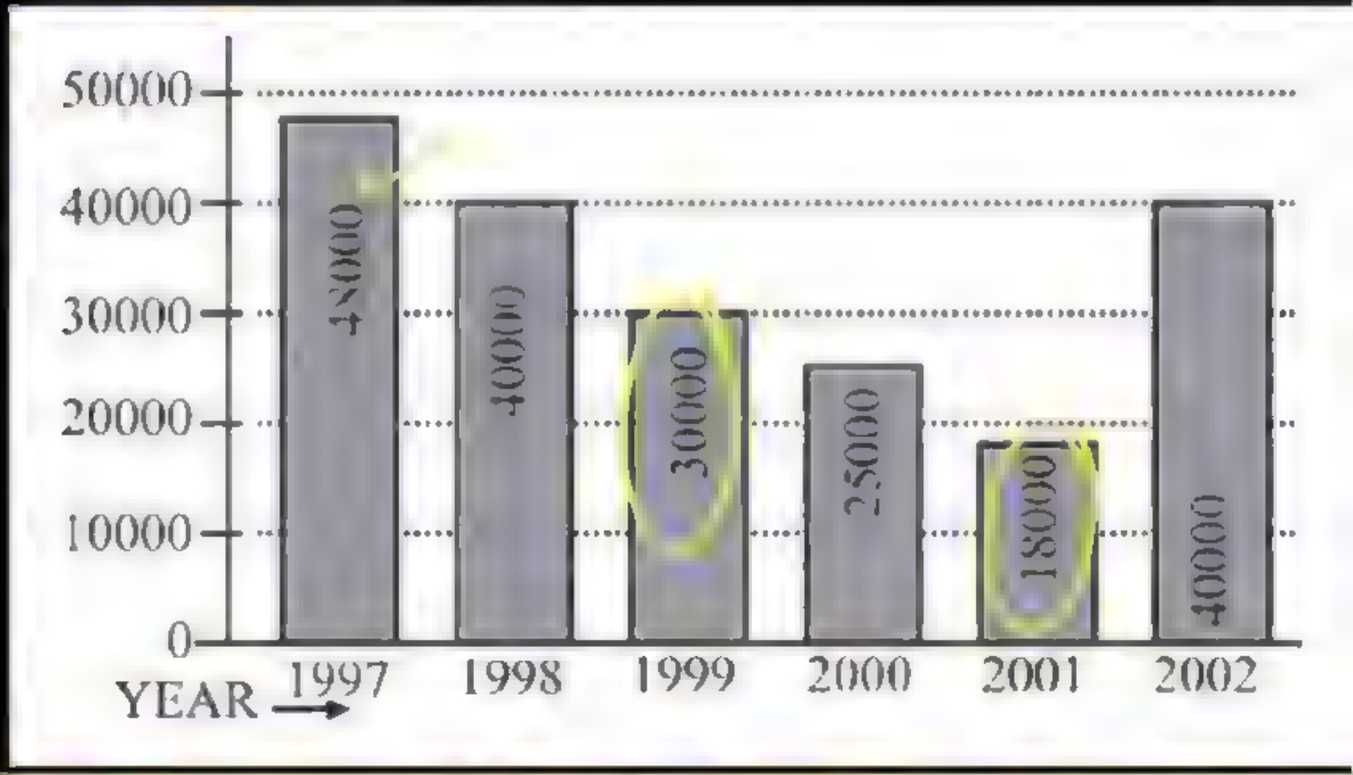

IGacademy Download App in PlayStore | SUBSCRIBE IshwarGiri ಪಾಠಶಾಲೆ | 8660070677

Q. The rate of sales for TV sets has been minimum between which two years?
ಟಿವಿ ಸೆಟ್‌ಗಳ ಮಾರಾಟದ ದರವು ಯಾವ ಎರಡು ವರ್ಷಗಳ ನಡುವೆ ಕನಿಷ್ಠವಾಗಿದೆ?

(a) 1998 and 1999 (b) 1999 and 2000 (c) 1997 and 1998 (d) 2001 and 2002

8000 5000 10000 22000

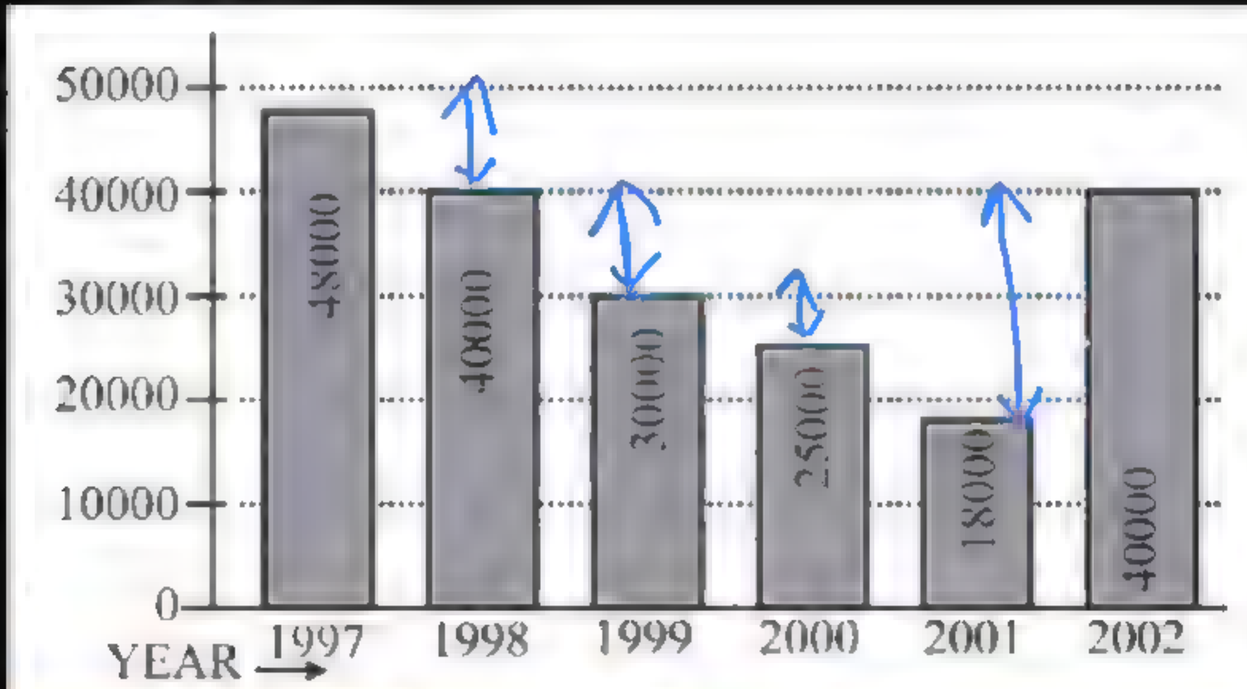

IGacademy Download App in PlayStore | SUBSCRIBE IshwarGiri ಪಾಠಶಾಲೆ | 8660070677

Q. Answer the following questions based on the information. The Coca-Cola company makes drinks in three different flavour mint (M), Apple (A) and Orange (O). The bar graph below shows the production of the three flavours for 6 years.

ಮಾಹಿತಿಯ ಆಧಾರದ ಮೇಲೆ ಈ ಕೆಳಗಿನ ಪ್ರಶ್ನೆಗಳಿಗೆ ಉತ್ತರಿಸಿ. ಕೋಕಾ-ಕೋಲಾ ಕಂಪನಿಯು ಮೂರು ವಿಭಿನ್ನ ಫ್ಲೇವರ್ ಮಿಂಟ್ (M), ಆಪಲ್ (A) ಮತ್ತು ಆರೆಂಜ್ (O) ನಲ್ಲಿ ಪಾನೀಯಗಳನ್ನು ತಯಾರಿಸುತ್ತದೆ.

ಕೆಳಗಿನ ಬಾರ್ ಗ್ರಾಫ್ 6 ವರ್ಷಗಳ ಕಾಲ ಮೂರು ಫ್ಲೇವರ್ ಗಳ ಉತ್ಪಾದನೆಯನ್ನು ತೋರಿಸುತ್ತದೆ.

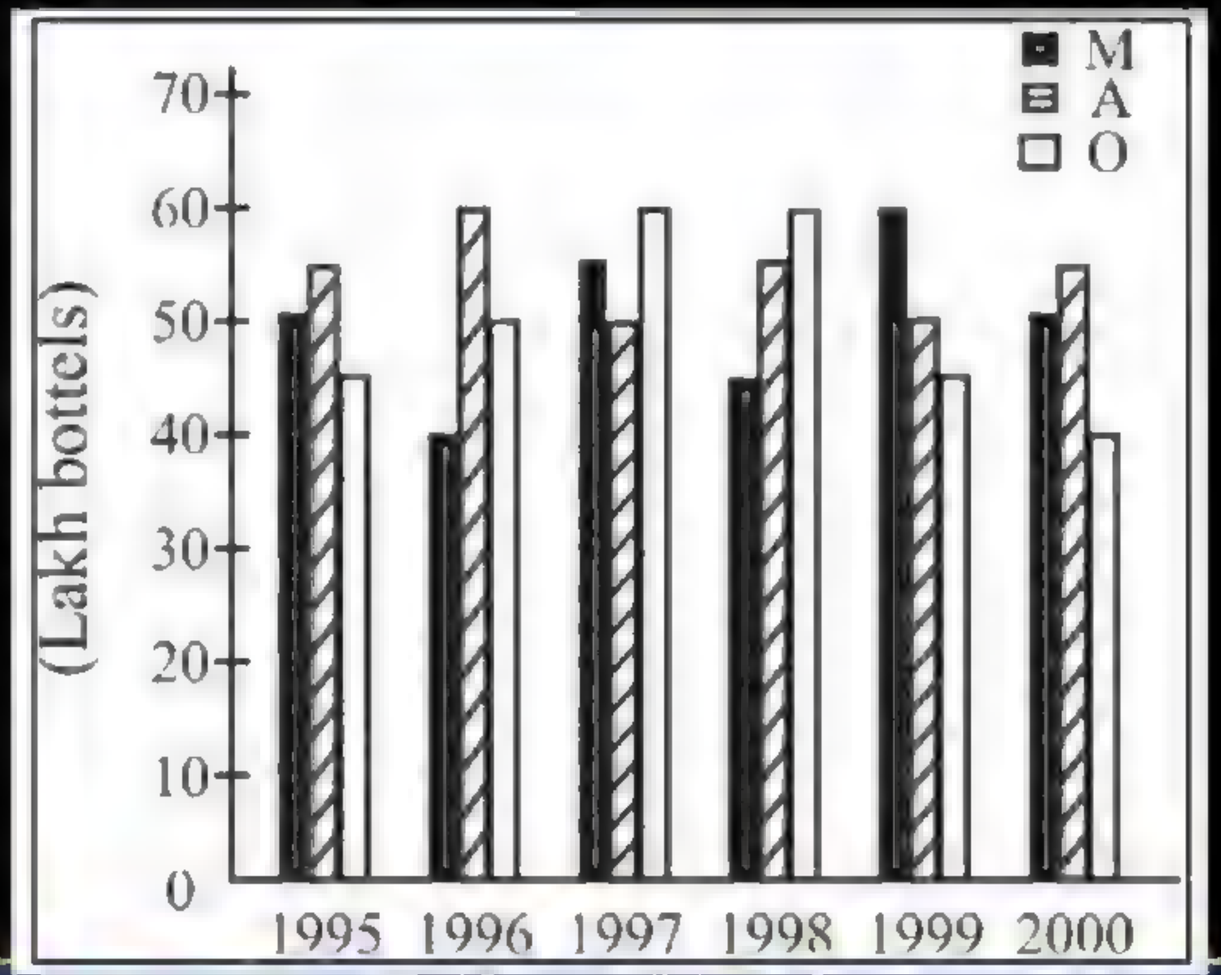

IGacademy Download App in PlayStore | SUBSCRIBE IshwarGiri ಪಾಠಶಾಲೆ | 8660070677

Q. How much did the production of Orange flavour reduce in the year 2000 compared to in the year 1998?

1998 ರ ವರ್ಷಕ್ಕೆ ಹೋಲಿಸಿದರೆ 2000 ರಲ್ಲಿ ಆರೆಂಜ್ ಫ್ಲೇವರ್ ನ ಉತ್ಪಾದನೆಯು ಎಷ್ಟು ಕಡಿಮೆಯಾಗಿದೆ?

(a) 50%
(b) 42%
(c) 33.33%
(d) 25%

$\frac{20}{60} \times 100 = 33.33\%$

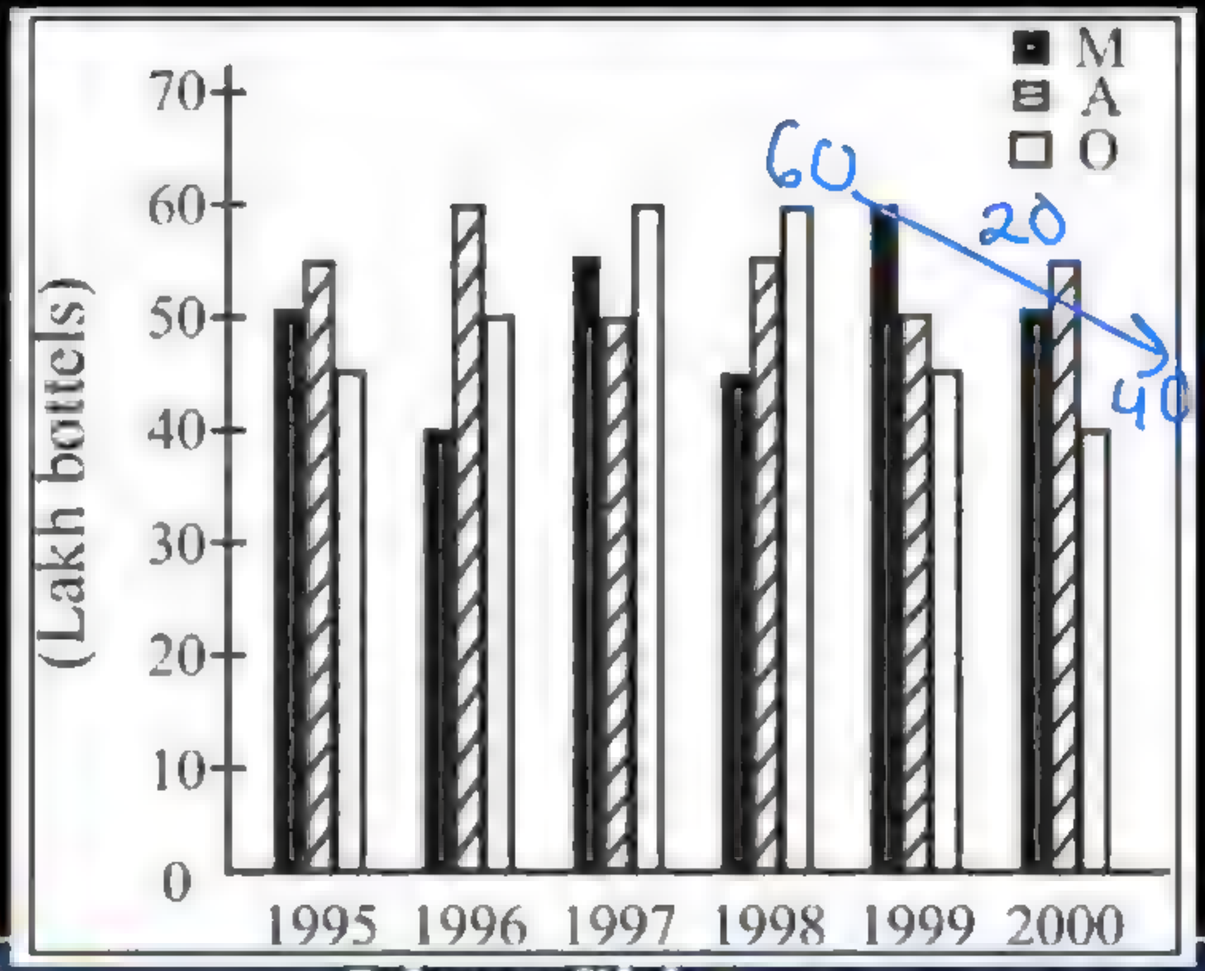

IGacademy Download App in PlayStore | SUBSCRIBE IshwarGiri ಮಾರ್ಗದರ್ಶಿ | 8660070677

Q. 1998 ರ ವರ್ಷಕ್ಕೆ ಹೋಲಿಸಿದರೆ 2000 ರಲ್ಲಿ ಆರೆಂಜ್ ಫ್ಲೇವರ್ ನ ಉತ್ಪಾದನೆಯು ಎಷ್ಟು ಕಡಿಮೆಯಾಗಿದೆ?

(a) 50% (b) 42% (c) 33.33% (d) 25%

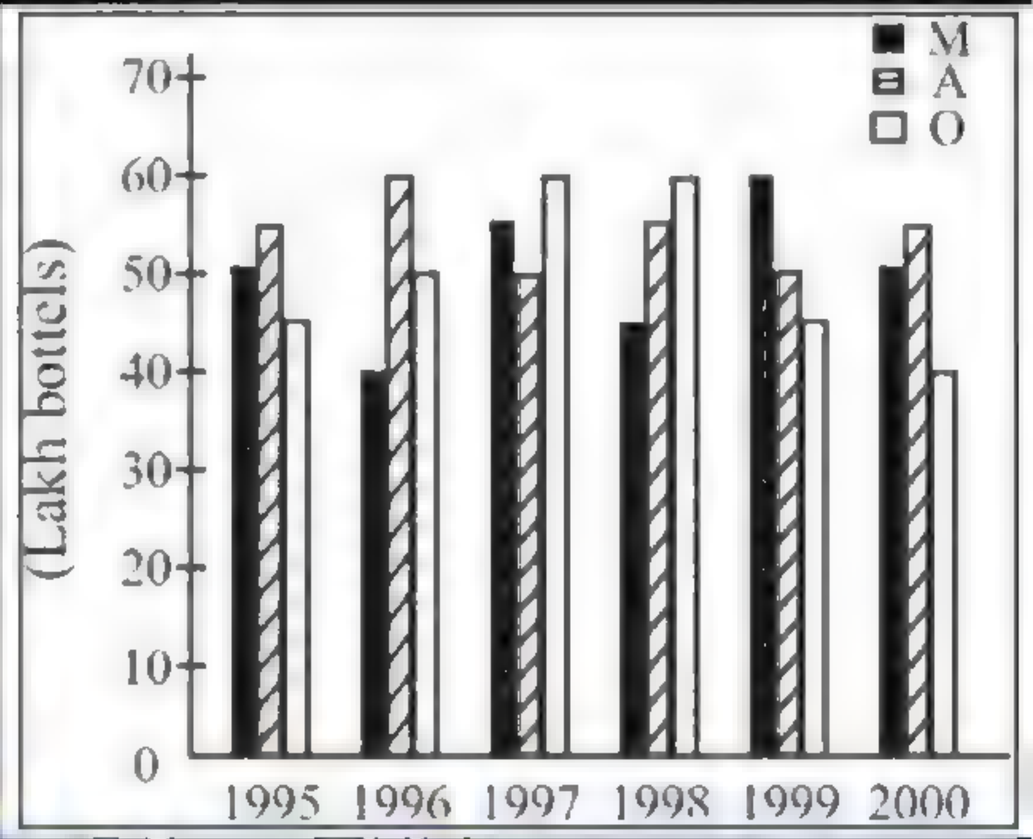

IGacademy Download App in PlayStore | SUBSCRIBE IshwarGiri ಪಾಠಶಾಲೆ | 8660070677

Q. The percentage increase in the population is highest as compared to that of the previous year in the year:

ಹಿಂದಿನ ವರ್ಷಕ್ಕೆ ಹೋಲಿಸಿದರೆ ಜನಸಂಖ್ಯೆಯ ಶೇಕಡಾವಾರು ಹೆಚ್ಚಳವು ಯಾವ ವರ್ಷದಲ್ಲಿ ಅತ್ಯಧಿಕವಾಗಿದೆ:

(a) 2001 (b) 1981

(c) 1971 (d) 1961

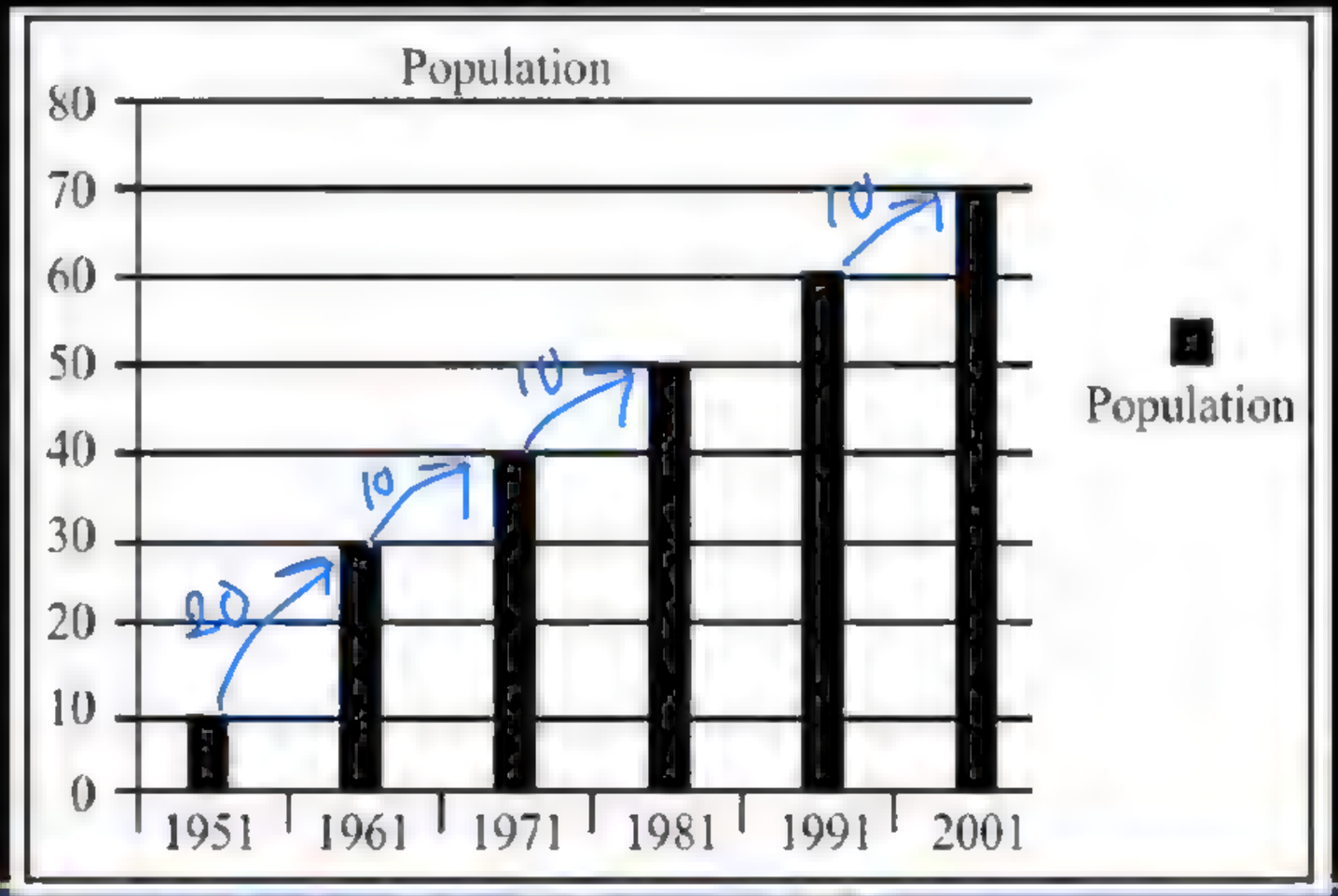

IGacademy Download App in PlayStore | SUBSCRIBE IshwarGiri ಪಾಠಶಾಲೆ | 8660070677

Q: ಹಿಂದಿನ ವರ್ಷಕ್ಕೆ ಹೋಲಿಸಿದರೆ ಜನಸಂಖ್ಯೆಯ ಶೇಕಡಾವಾರು ಹೆಚ್ಚಳವು ಯಾವ ವರ್ಷದಲ್ಲಿ ಅತ್ಯಧಿಕವಾಗಿದೆ:

(a) 2001 (b) 1981 (c) 1971 (d) 1961

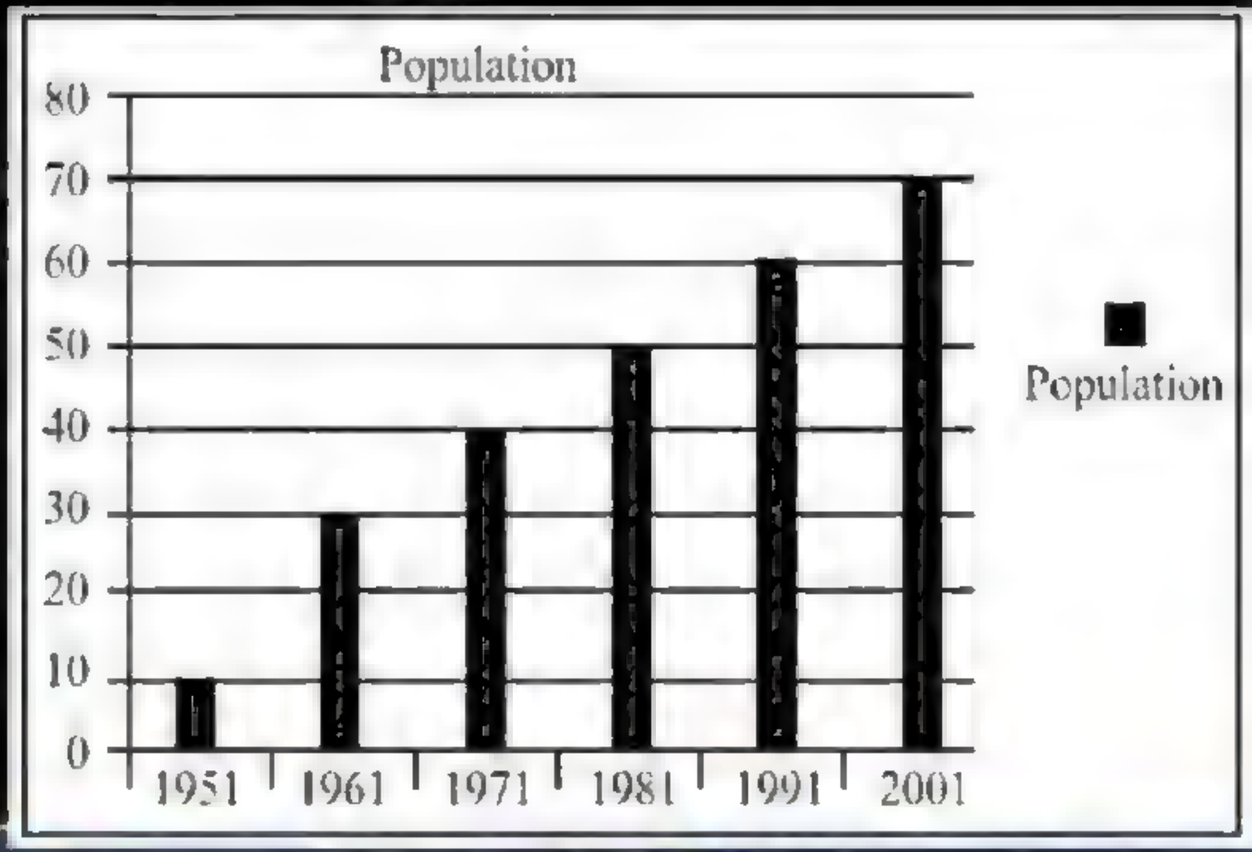

IGacademy Download App in PlayStore | SUBSCRIBE IshwarGiri ಪಾಠಶಾಲೆ | 8660070677

IGacademy
Download App in PlayStore
SUBSCRIBE
IshwarGiri ಪಾಠಶಾಲೆ
8660070677

Q. Based on the graph below, which section contains more than 360 books?
ಕೆಳಗಿನ ಗ್ರಾಫ್ ಅನ್ನು ಆಧರಿಸಿ, ಯಾವ ವಿಭಾಗವು 360 ಕ್ಕಿಂತ ಹೆಚ್ಚು ಪುಸ್ತಕಗಳನ್ನು ಒಳಗೊಂಡಿದೆ?

(a) only section 3
(b) section 4 and section 5
(c) section 3 and section 5
(d) section 5 and section 6

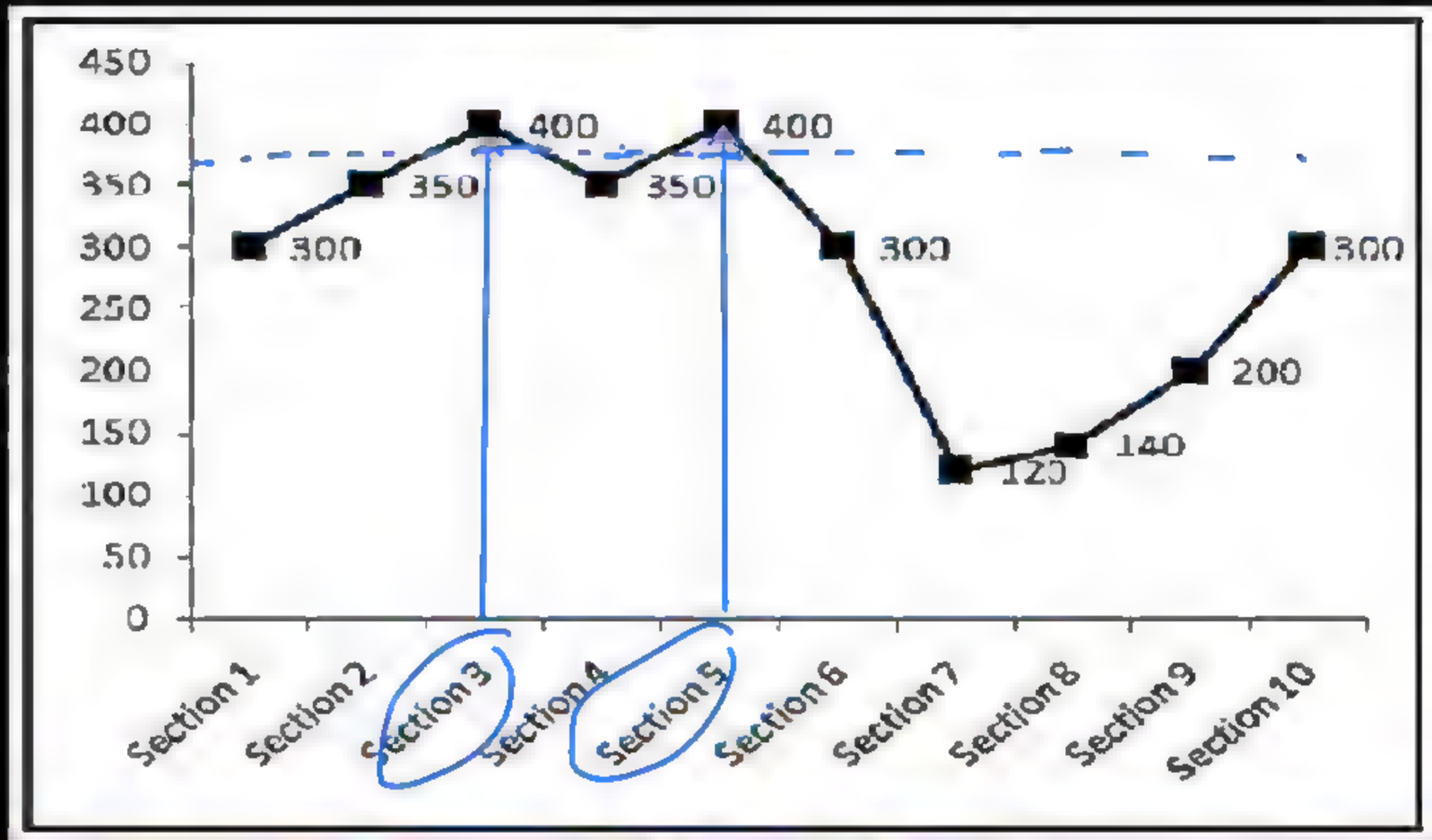

IGacademy Download App in PlayStore | SUBSCRIBE IshwarGiri ಪಾಠಶಾಲೆ | 8660070677

Q. ಕೆಳಗಿನ ಗ್ರಾಫ್ ಅನ್ನು ಆಧರಿಸಿ, ಯಾವ ವಿಭಾಗವು 360 ಕ್ಕಿಂತ ಹೆಚ್ಚು ಪುಸ್ತಕಗಳನ್ನು ಒಳಗೊಂಡಿದೆ?

(a) only section 3
(b) section 4 and section 5
(c) section 3 and section 5
(d) section 5 and section 6

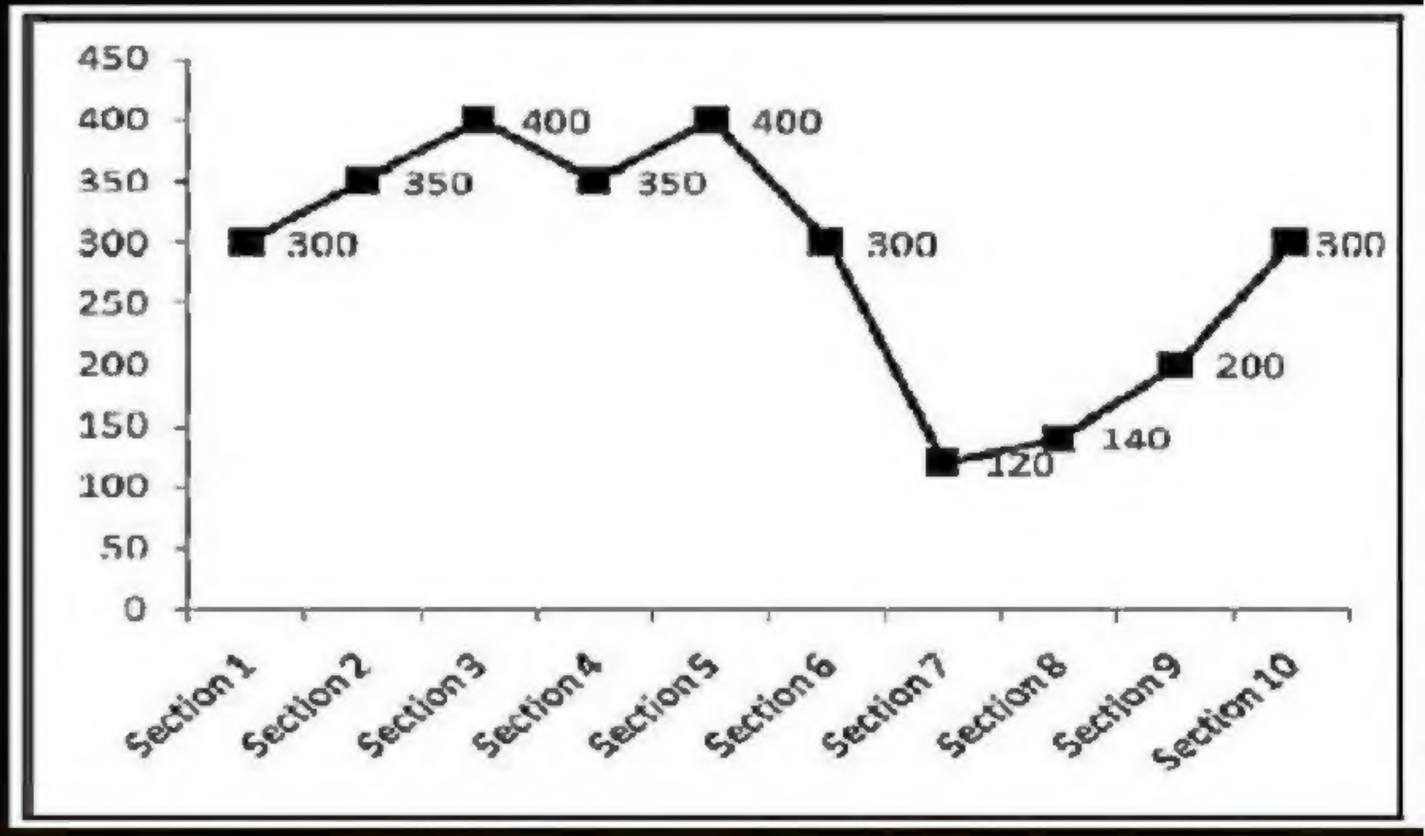

IGacademy Download App in PlayStore | SUBSCRIBE IshwarGiri ಪಾಠಶಾಲೆ | 8660070677

Q. Based on the given graph, what percentage of a change in concentration of CO2 from year 1995 to 2015 year?

ನೀಡಿರುವ ಗ್ರಾಫ್‌ನ ಆಧಾರದ ಮೇಲೆ, 1995 ರಿಂದ 2015 ರವರೆಗೆ CO2 ನ ಸಾಂದ್ರತೆಯಲ್ಲಿನ ಬದಲಾವಣೆಯ ಶೇಕಡಾವಾರು ಎಷ್ಟು?

(a) 11.26%
(b) 11.31%
(c) 11.00%
(d) 11.11%

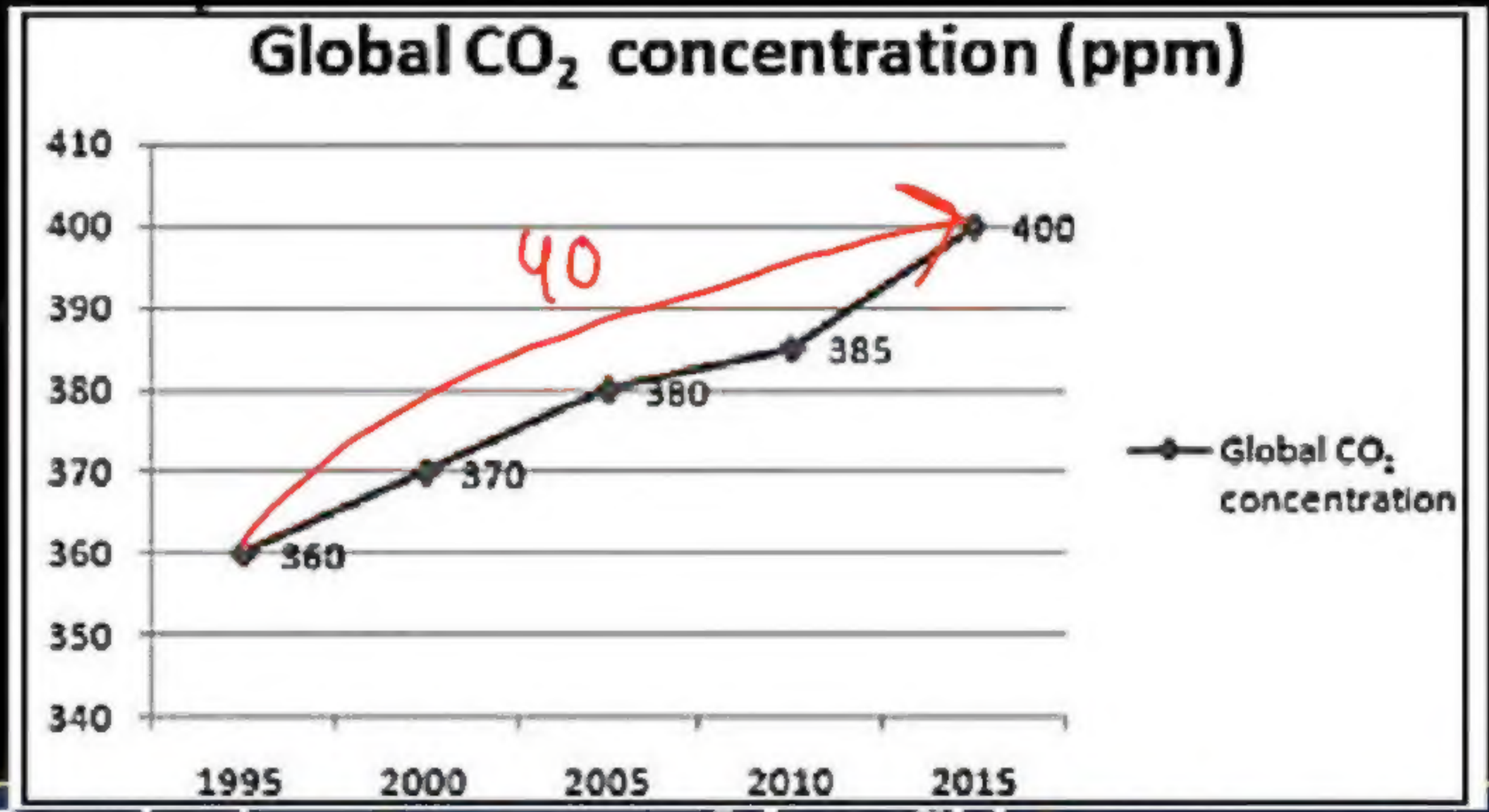

IGacademy
Download App in PlayStore
SUBSCRIBE
IshwarGiri ಪಾಠಶಾಲೆ
8660070677

Q. ನೀಡಿರುವ ಗ್ರಾಫ್‌ನ ಆಧಾರದ ಮೇಲೆ, 1995 ರಿಂದ 2015 ರವರೆಗೆ CO_2 ನ ಸಾಂದ್ರತೆಯಲ್ಲಿನ ಬದಲಾವಣೆಯ ಶೇಕಡಾವಾರು ಎಷ್ಟು?

(a) 11.26% (b) 11.31% (c) 11.00% (d) 11.11%

$$\frac{40}{360} = \frac{1}{9} = 11.11\%$$

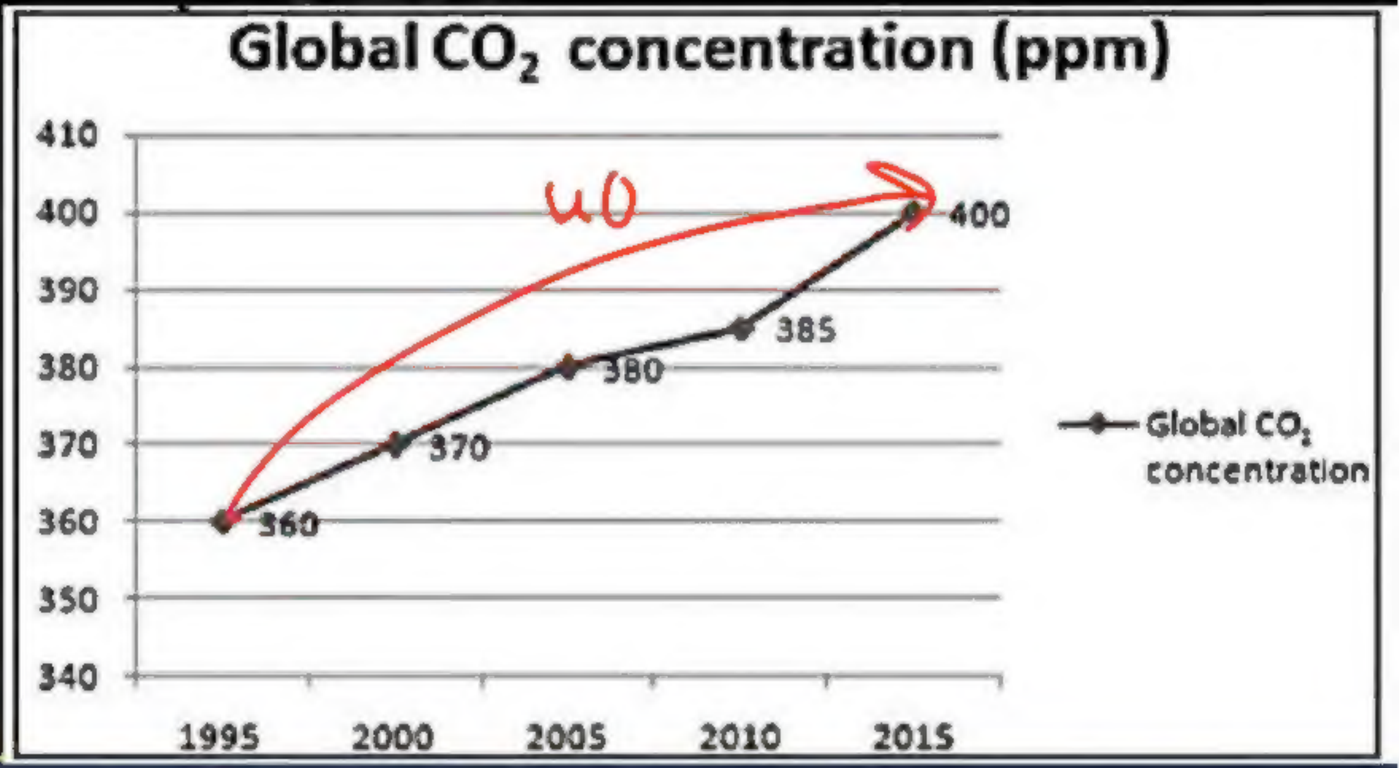

IGacademy Download App in PlayStore | SUBSCRIBE IshwarGiri ಪಾಠಶಾಲೆ | 8660070677

thank
you